第７章	地理（1 年）	高校入試過去問題	世界と日本の姿 日本の姿	1120

[問題 1]（山形 2022 年 2 月）

都道府県を調べる授業で，優さんは中国・四国地方について調べました。地図や資料は，そのときまとめたものです。次の問いに答えなさい。

問１　都道府県は，地形の特色などから，さまざまな地域に区分されることがあります。
次の**ア**～**オ**の地域区分のうち，中国・四国地方の県をふくむものを**すべて**選び，記号で答えなさい。

ア　瀬戸内　　**イ**　北陸　　**ウ**　中央高地
エ　山陰　　**オ**　東海

略地図

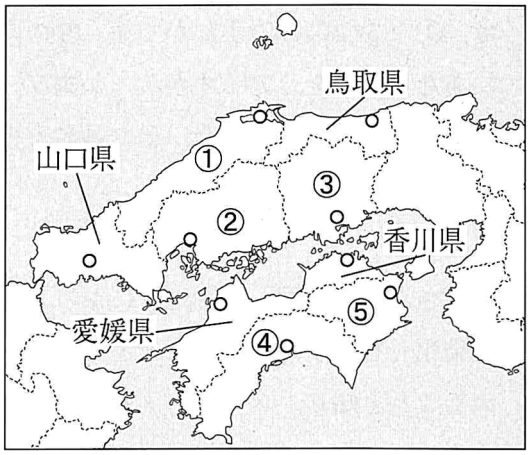

注：**略地図**中の○は，県庁所在地の位置を示している。

問２　**資料Ⅰ**は，**略地図**中の，②の県の県庁所在地を流れる川の河口部の様子です。**資料Ⅰ**にみられるような，河口部に，川が運んできた細かい土砂が堆積してできた地形のことを何というか，次の**ア**～**エ**から一つ選び，記号で答えなさい。

資料Ⅰ

ア　扇状地　　**イ**　三角州　　**ウ**　盆地　　**エ**　台地

問３　**資料Ⅱ**は，石油化学コンビナートの分布を，**資料Ⅲ**は，日本国内での原油の生産量と海外からの輸入量を示しています。石油化学コンビナートは，どのような場所に立地しているか，**資料Ⅲ**をふまえて書きなさい。

資料Ⅱ

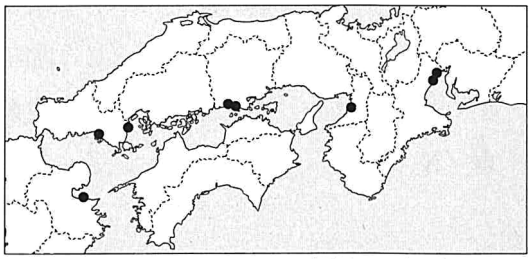

（『日本国勢図会　2021／22年版』から作成）
注：資料Ⅱ中の●は，石油化学コンビナートの位置を示している。

資料Ⅲ　（千 kL）

	2020 年
国内での生産量	512
海外からの輸入量	143,880

（『日本国勢図会　2021／22 年版』から作成）

問４　資料Ⅳは，東京都中央卸売市場における，なすの月別取扱量と，月別平均価格を表しています。
次は，優さんが，資料Ⅳをふまえて，略地図中の④の県のなすの栽培についてまとめたものです。あとの問いに答えなさい。

> ④の県では，温暖な気候を生かし，温室を利用して出荷時期を早めて販売できるようにする［ a ］が行われている。このような栽培方法により，④の県では，東京都中央卸売市場において，なすの［ b ］時期に，多くのなすを出荷できていると考えられる。

(1) ［ a ］にあてはまる栽培方法を書きなさい。

(2) ［ b ］にあてはまる言葉を，供給量，価格の二つの語を用いて書きなさい。

資料Ⅳ

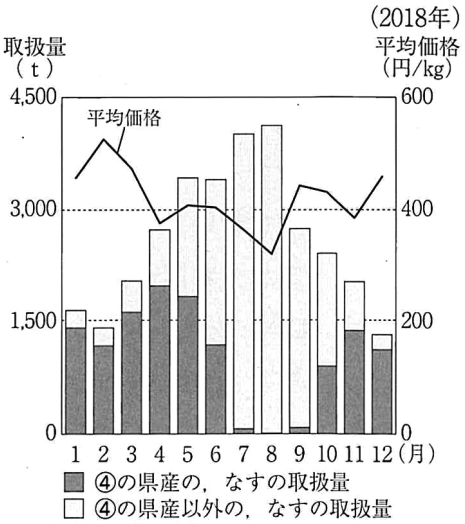

(東京都中央卸売市場のホームページから作成)

問５　資料Ⅴは，略地図中の①～⑤の県における，県庁所在地の人口や，林業産出額などについてまとめたものです。ア～オは，①～⑤の県のいずれかです。⑤の県にあたるものを，ア～オから一つ選び，記号で答えなさい。また，その県名も書きなさい。

資料Ⅴ　(2018 年)

	県庁所在地の人口 (千人)	林業産出額 (億円)	漁業生産量 (t)	県庁所在地の１月の平均降水量 (mm)
ア	1,195	77	123,424	44.6
イ	709	59	26,411	34.2
ウ	332	82	94,110	58.6
エ	255	110	22,498	38.9
オ	204	67	117,788	147.2

(『データでみる県勢　2021 年版』などから作成)

問６　優さんは，中国・四国地方における地域の活性化について調べ，中国・四国地方の県では，「６次産業化」をすすめていることを知りました。さらに，優さんは，山形県も「６次産業化」をすすめていることを知り，**メモⅠ**，**メモⅡ**にまとめました。**メモⅡ**の［X］，［Y］，［Z］にあてはまる言葉の組み合わせとして適切なものを，次の**ア**～**カ**から一つ選び，記号で答えなさい。

	X	Y	Z
ア	加工	生産	販売
イ	加工	販売	生産
ウ	生産	加工	販売
エ	生産	販売	加工
オ	販売	加工	生産
カ	販売	生産	加工

メモⅠ　「６次産業化」とは

○　農林漁業者が，農産物などの持つ価値をさらに高め，所得を向上させていくこと。

○　「６」は，第１次産業の「１」，第２次産業の「２」，第３次産業の「３」をかけ算した，「６」を意味する。

（農林水産省のホームページなどから作成）

メモⅡ　山形県が考える「６次産業化」の例

○　「１次×２次×３次」
農林漁業者が，［X］から［Y］，［Z］まで取り組む。

○　「１次×２次」
農林漁業者が，［X］と［Y］に取り組む。

○　「１次×３次」
農林漁業者が，［X］と［Z］に取り組む。

（山形県のホームページから作成）

[解答欄]

問１		
問２		
問３		
問４	(1)	
	(2)	
問５	記号	
	県名	県
問６		

[問題 2]（千葉 2022 年 2 月）

はるさんたちは，日本を北海道，東北，関東，中部，近畿，中国・四国及び九州の７地方に区分した次の図を使って学習した。これに関して，あとの**問１**～**問４**の問いに答えなさい。

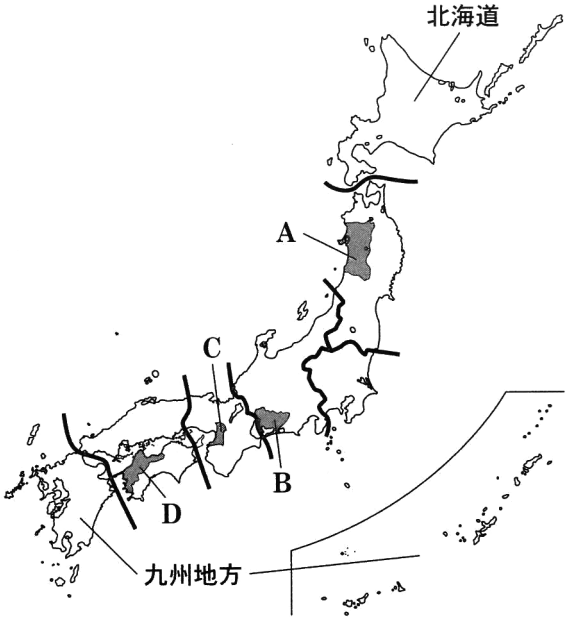

問１　次の文章は，はるさんたちが，図を見ながら話し合っている場面の一部である。文章中の［Ⅰ］にあてはまる最も適当なものを，あとの**ア**～**エ**のうちから一つ選び，その符号を書きなさい。また，［Ⅱ］にあてはまる県庁所在地名を**漢字**で書きなさい。

はる：私は，長野県，福島県，新潟県，群馬県に行ったことがあるよ。
もも：その４つの県のうち［Ⅰ］は，７地方区分の同じ地方に属しているね。
はな：長野県，福島県，新潟県，群馬県の県庁所在地のうち，県名と異なる県庁所在地はあるかな。
とし：それは，［Ⅱ］市だね。

ア　長野県と群馬県　　**イ**　福島県と新潟県　　**ウ**　群馬県と福島県　　**エ**　新潟県と長野県

問２　次の文章は，としさんが，**九州地方**の様子についてまとめたレポートの一部である。文章中の［　　］に共通してあてはまる適当な語を書きなさい。

九州地方には，多くの火山があります。それらの火山活動により，温泉などの観光資源や再生可能エネルギーの１つである［　　］による発電などの，めぐみがもたらされています。右の写真は，大分県九重（ここのえまち）町にある，日本最大級の［　　］発電所です。



問３　次の表は，はなさんが，７地方区分から一つずつ道府県を選び，人口と農業産出額をまとめたものである。表中の**ア**～**エ**は，図中のＡ～Ｄの府県のいずれかである。図中のＢとＤを示す最も適当なものを，表中の**ア**～**エ**のうちからそれぞれ一つずつ選び，その符号を書きなさい。

道府県名	人口（2019 年）（千人）	農業産出額（2018 年）（億円）					
		米	野菜	果実	花き	肉用牛	乳用牛
北海道	5,250	1,122	2,271	54	131	1,016	5,026
ア	966	1,036	308	72	31	62	32
鹿児島県	1,602	211	556	106	122	1,266	112
イ	1,339	168	201	530	28	26	42
ウ	7,552	296	1,125	202	543	113	223
千葉県	6,259	728	1,546	157	193	98	274
エ	8,809	73	150	67	17	2	13

（注）花き：切花や鉢花などの鑑賞用の植物

（「データで見る県勢 2021 年版」より作成）

問４　次の地形図は，図中の**北海道**のある地域を示したものである。これを見て，あとの①，②の問いに答えなさい。

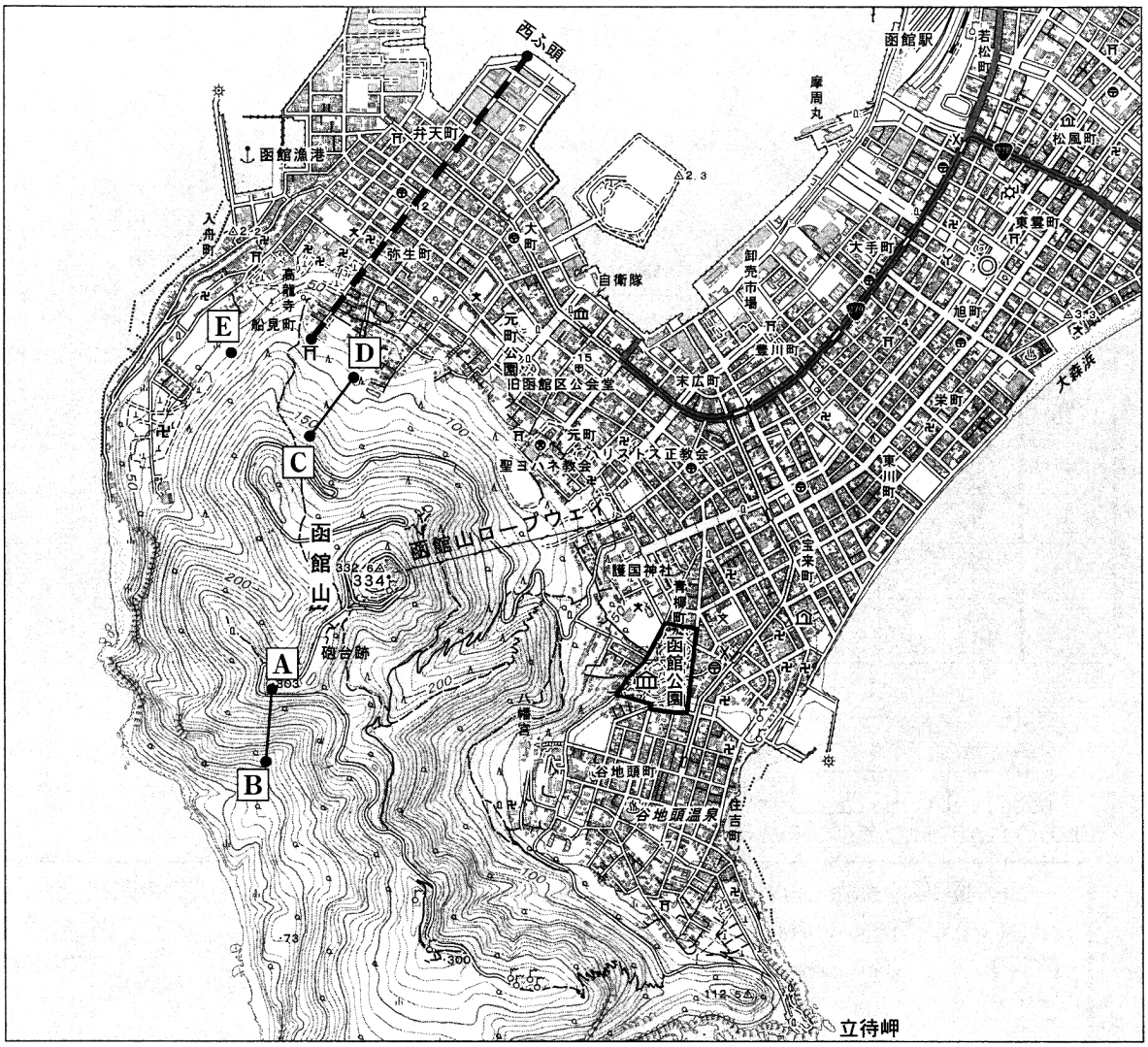

（国土地理院　平成 28 年発行１：25,000「函館」原図より作成）

めもり 0　5 cm

① 次の**資料**は，ももさんが，地形図から読み取ったことがらをまとめたレポートの一部である。**資料**中の下線部**ア**～**エ**のうち，内容が**誤っている**ものを一つ選び，その符号を書きなさい。

資料　ももさんがまとめたレポートの一部

斜面の傾斜	ア<u>Ａ－Ｂ間よりもＣ－Ｄ間の方が傾斜が緩やかです</u>。
函館山周辺の観光地	イ<u>――― で囲んだ函館公園の敷地内には，博物館があります</u>。
	ウ<u>函館山の山頂から見てほぼ南東の方向に立待岬があります</u>。
山頂との標高差	エ<u>函館山の山頂と地点Ｅとの標高差は 300m 以上あります</u>。

② 地形図中の ━ ━ ━ 線は，西ふ頭（にしふとう）から函館山のふもとの神社までの経路を示したものである。この経路の距離は約何mか。実際の距離として最も適当なものを，次の**ア**～**エ**のうちから一つ選び，その符号を書きなさい。

ア 約 500m　　**イ** 約 1,250m　　**ウ** 約 1,750m　　**エ** 約 2,500m

[解答欄]

問１	Ⅰ	
	Ⅱ	市
問２		
問３	B	
	D	
問４	①	
	②	

[問題 3] (福井 2022 年 2 月)

花子さんは，日本の都市と地方の自然と産業について調べ学習を行った。以下の問いに答えよ。

問１　花子さんは，政令指定都市の分布を示した**資料１**を作成した。
関東地方と中部地方の政令指定都市の数をそれぞれ書け。

資料１

問２　花子さんは，**資料２**の東京都の千代田区（都心部）と八王子市（郊外）の８月１日と２月１日の１日の気温の変化を比較し，以下のレポートを作成した。（　A　）には適する語句を，（　B　）には適する内容を書け。

> **資料２**を見ると千代田区では（　A　）現象が起きていると考えられる。それは，早朝と夜間で（　B　）ということが読み取れるからである。

資料２　１日の気温の変化

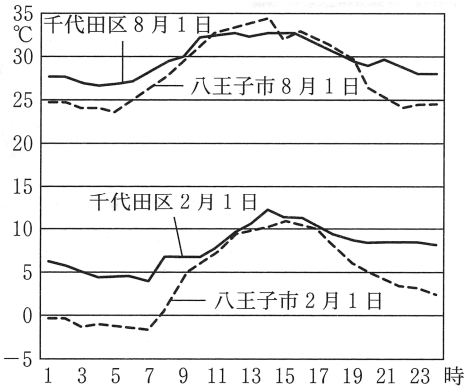

(統計年は 2014 年，気象庁ホームページより作成)

問３　花子さんは，**資料３，４**からわかることをまとめた。まとめた文として適当なものを，次の**ア**～**エ**から一つ選んで，その記号を書け。

ア　日本海側や太平洋側に比べて瀬戸内海側の方が，高速道路の整備が遅れている。

イ　本州四国連絡橋は，すべて1980 年以前に開通したものである。

ウ　瀬戸大橋の開通後，岡山県と香川県の間で通勤・通学する人が２倍以上に増えた。

エ　四国地方の高速道路は，すべて 2000 年以前に開通したものである。

資料３　高速道路の整備

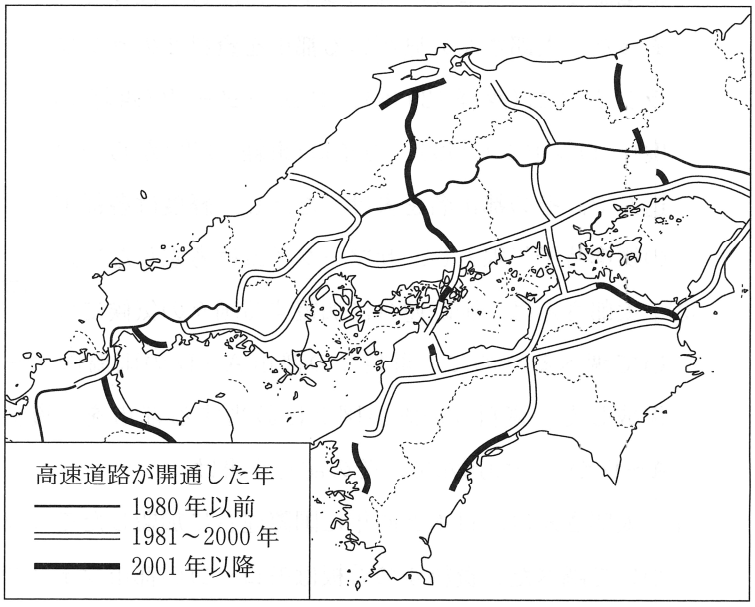

資料４

岡山県・香川県間の通勤・通学者数の変化（人）

	1980 年	2015 年
岡山県から香川県へ	541	2, 453
香川県から岡山県へ	834	2, 170

問４　花子さんは，日本の郷土料理について調べ，**資料５**を見つけた。いずれも岩手県と宮城県で養殖されている食材を使用している。この二県で養殖が盛んに行われている理由を，二県に共通する地形と，その地形が養殖漁業に適している特徴に着目して書け。

資料５　岩手県と宮城県の郷土料理

【岩手県】　いちご煮 ウニとアワビの吸いもの。青森県の太平洋沿岸の郷土料理でもある。	【宮城県】　ホヤの酢の物 ホヤをワカメなどと一緒に酢などであえたもの。*ホヤ：海産動物の一種

問５　花子さんは，日本の自動車メーカーが海外生産をしていることを知り，**資料６**を見つけた。1985 年から 1995 年にかけて生産台数が最も増加した地域名を書け。また，その地域で増加した理由を書け。

資料６　日本の自動車メーカーの海外生産（千台）

地域	1985 年	1990 年	1995 年
アジア	209	952	1, 883
ヨーロッパ	45	227	642
北アメリカ	297	1, 570	2, 595
中南アメリカ	90	161	111
アフリカ	100	186	226
オセアニア	152	169	103
計	891	3, 265	5, 559

（「日本国勢図会 2009/10」より作成）

問６　花子さんは，日本の農産物の自給率について調べ，**資料７**を見つけた。**資料７**中のア～ウは，果実，米，野菜のいずれかを示したものである。組合わせとして最も適当なものを，次の①～⑥から一つ選んで，その番号を書け。

資料７　主な農産物の自給率の移り変わり

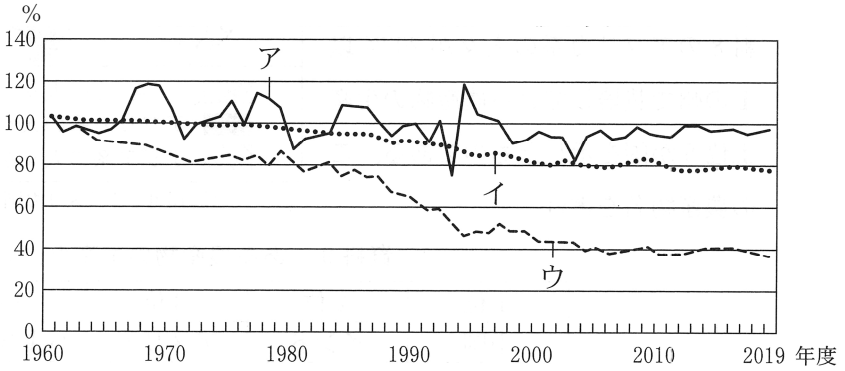

（農林水産省ホームページより作成）

	①	②	③	④	⑤	⑥
果実	ア	ア	イ	イ	ウ	ウ
米	イ	ウ	ア	ウ	ア	イ
野菜	ウ	イ	ウ	ア	イ	ア

[解答欄]

<table>
<tr><td rowspan="2">問１</td><td colspan="2">関東地方</td><td></td></tr>
<tr><td colspan="2">中部地方</td><td></td></tr>
<tr><td rowspan="2">問２</td><td>A</td><td colspan="2"></td></tr>
<tr><td>B</td><td colspan="2"></td></tr>
<tr><td>問３</td><td colspan="3"></td></tr>
<tr><td>問４</td><td colspan="3"></td></tr>
<tr><td rowspan="2">問５</td><td>地域</td><td colspan="2"></td></tr>
<tr><td>理由</td><td colspan="2"></td></tr>
<tr><td>問６</td><td colspan="3"></td></tr>
</table>

[問題 4] (福岡 2022 年 2 月)

洋一さんは，日本の様々な地域の特色について調べ，**資料集**を作成した。**資料集**をみて，各問に答えよ。

資料集

都道府県の人口の変化

資料Ⅰ　1980 年と比較した 2020 年の人口の増減

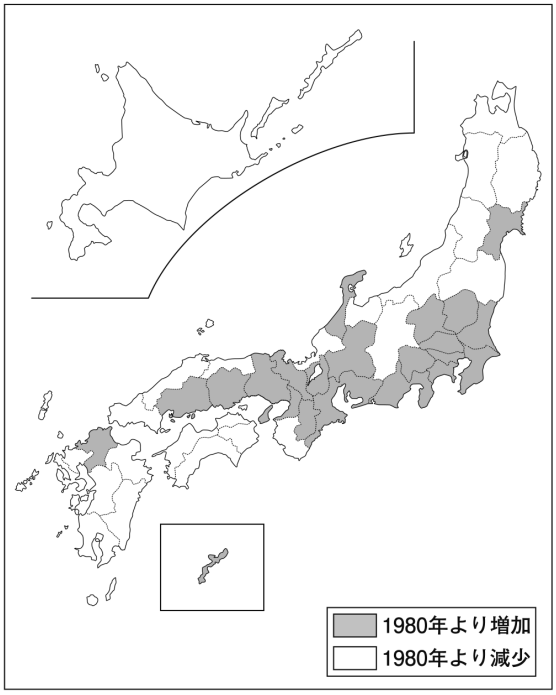

(総務省ホームページから作成)

北海道地方と九州地方の畜産業

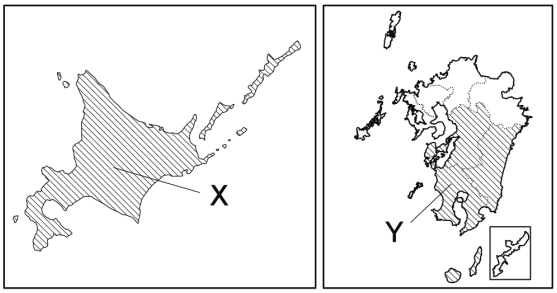

資料Ⅱ　豚と乳牛の飼育頭数の割合（2019 年）

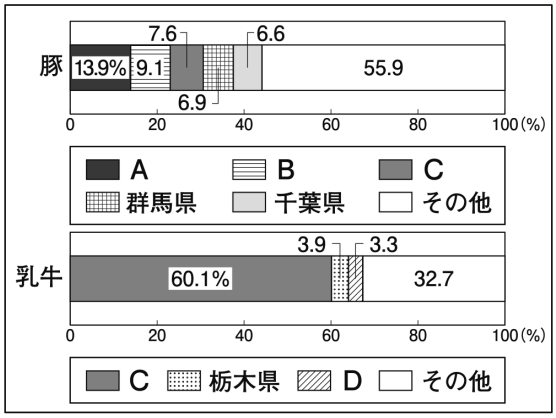

(2021 年版「データでみる県勢」等から作成)

中部地方と中国・四国地方の自然環境と農業

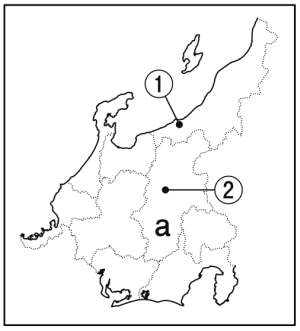

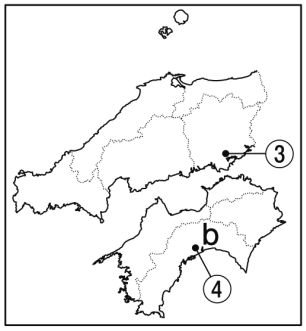

資料Ⅲ　①～④の都市の月平均気温と月降水量

項目／都市	月平均気温(℃)		月降水量(mm)	
	1月	7月	1月	7月
あ	6.3	26.7	58.6	328.3
い	−0.4	23.6	35.9	138.4
う	4.9	27.2	34.2	160.9
え	2.4	24.6	419.1	210.6

（令和３年「理科年表」から作成）

資料Ⅳ　東京都中央卸売市場へのレタスとなすの出荷量（2019 年）

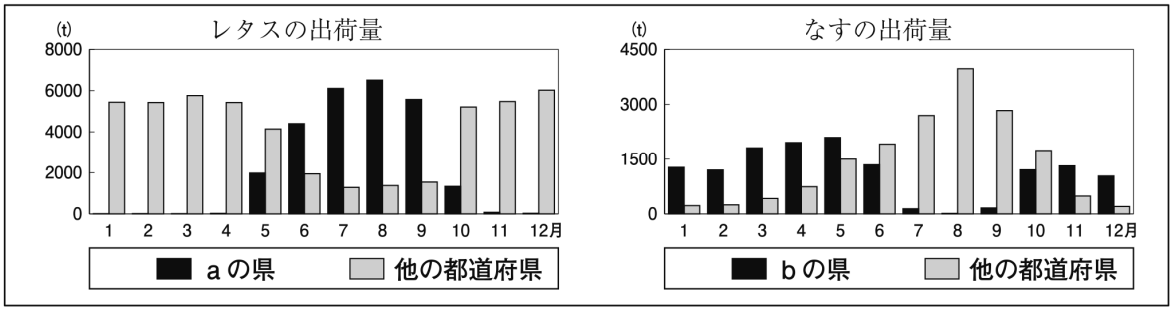

（東京都中央卸売市場ホームページから作成）

資料Ⅰ，**略地図**の図法，縮尺は同じではない。

問１　日本を七つの地方（九州，中国・四国，近畿，中部，関東，東北，北海道）に区分したとき，**資料Ⅰ**から，下の □ 内の二つの条件にあてはまる地方を二つ選び，地方名を書け。

> 条件１：2020 年の人口が 1980 年から増加している都道府県の数が，減少している都道府県の数より多い地方
>
> 条件２：人口が 100 万人以上の都市が二つ以上ある地方

問２　北海道地方と九州地方の畜産業について，**略地図**の ▨ で示す道県は，**資料Ⅱ**のＡ～Ｄのいずれかを示している。**略地図**のＸ，Ｙの道県を示すものを，Ａ～Ｄからそれぞれ一つ選び，記号を書け。ただし，同じ記号は同じ道県を示している。

問３　中部地方と中国・四国地方の自然環境と農業について，(1)，(2)に答えよ。

(1)　**略地図**の①～④は，**資料Ⅲ**の**あ**～**え**のいずれかの都市を示している。②の都市にあてはまるものを，**あ**～**え**から一つ選び，記号を書け。

(2)　**略地図**のａ，ｂの県に共通する出荷時期の特色を，**資料Ⅳ**から読み取って書け。

問４　洋一さんは，日本の工業の特色について調べ，資料を集めた。(1)，(2)に答えよ。

(1) **資料Ｖ**のＰにあてはまる品目を，次の１～４から一つ選び，番号を書け。

１　パルプ・紙　　２　精密機械　　３　鉄鋼　　４　繊維（せんい）

資料Ｖ　工業製品出荷額等割合の変化

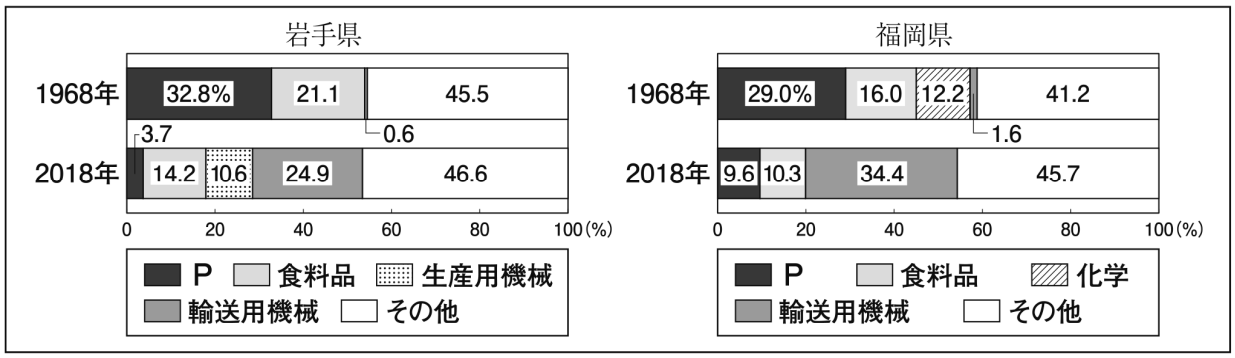

（経済産業省ホームページ等から作成）

(2) 次のＱ～Ｓは，ＩＣ（集積回路）工場，自動車組立工場，石油化学コンビナートのいずれかの分布を示し，**ア**～**ウ**は，洋一さんがそれぞれの分布の特徴を説明したものである。ＩＣ（集積回路）工場と，石油化学コンビナートについて，分布を示すものをＱ～Ｓから，分布の特徴を説明したものを**ア**～**ウ**からそれぞれ一つ選び，記号を書け。

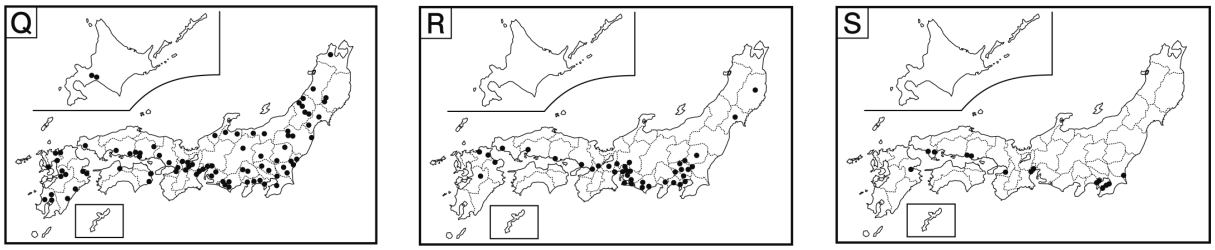

（2019/20 年版「日本国勢図会」から作成）

ア
原料を輸入するために太平洋ベルトの臨海部に分布している。

イ
製品を輸送するために空港や高速道路の近くに分布している。

ウ
愛知県や静岡県に集中し，近年は，北関東にも広がって分布してい

[解答欄]

問１	地方			
	地方			
問２	X		Y	
問３	(1)			
	(2)			
問４	(1)			
	(2)		分布	分布の特徴
		ＩＣ（集積回路）工場		
		石油化学コンビナート		

[問題 5]（福島 2022 年 2 月）

次の**地図Ⅰ**のＡ～Ｄは県を，ｓは都市を示している。**問１～問６**の問いに答えなさい。

問１　次の**写真**は，日本の東端に位置し，東京都に属している島を撮影したものである。島名を書きなさい。

写真

地図Ⅰ

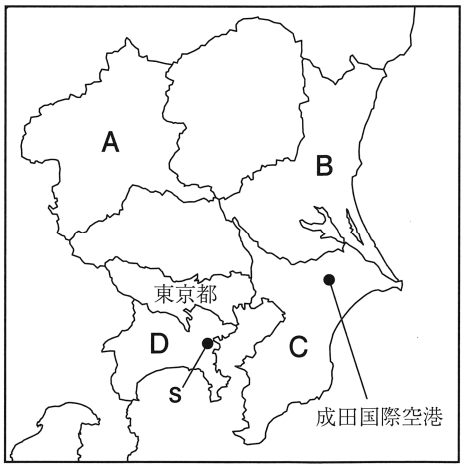

問２　Ａ県の農業について，次の①，②の問いに答えなさい。

①　右の**グラフⅠ**は，Ａ～Ｄ県から東京都中央卸売市場に出荷された農作物Ｅの月別取扱量を表している。Ａ県では，夏の冷涼な気候を生かして作物の生長を遅らせる工夫をして出荷している。この生産方法を何というか。**漢字４字**で書きなさい。

②　**グラフⅠ**の農作物Ｅとは何か。適当なものを，次の**ア**～**エ**の中から一つ選びなさい。

ア　はくさい　　**イ**　小麦

ウ　キャベツ　　**エ**　だいこん

グラフⅠ　Ａ～Ｄ県から東京都中央卸売市場に出荷された農作物Ｅの月別取扱量（2020 年）

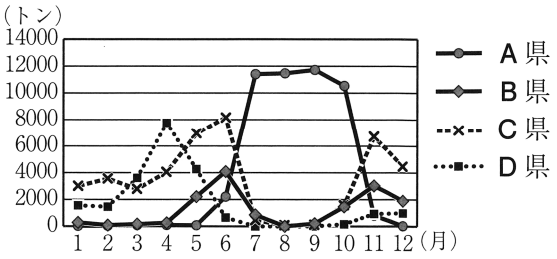

（東京都中央卸売市場資料により作成）

問３　次の**表Ⅰ**は，国内の主な発電方式別発電電力量の上位５都道府県を表している。また，**表Ⅰ**のＯ～Ｒは，それぞれ水力発電・火力発電・地熱発電・太陽光発電のいずれかの発電方式である。

Ｑにあてはまる発電方式を，下の**ア**～**エ**の中から一つ選びなさい。

ア　水力発電
イ　火力発電
ウ　地熱発電
エ　太陽光発電

表Ⅰ　国内の主な発電方式別発電電力量の上位５都道府県（2020 年度）

	Ｏ	Ｐ	Ｑ	Ｒ
第１位	富山県	福島県	Ｃ県	大分県
第２位	岐阜県	Ｂ県	Ｄ県	秋田県
第３位	長野県	岡山県	愛知県	鹿児島県
第４位	新潟県	北海道	福島県	岩手県
第５位	福島県	三重県	兵庫県	北海道

（データでみる県勢 2022 年版により作成）

問４　次の**グラフⅡ**は，ある路線の東京都内における主な駅周辺の住宅地１m^2あたりの土地価格を表している。また，右の**地図Ⅱ**は，東京駅と**グラフⅡ**の駅の位置を表している。**グラフⅡ**と**地図Ⅱ**から読み取れる東京都内の土地価格の傾向を，「**東京都内の土地価格は，**」の書き出しに続けて「**東京駅**」の語句を用いて書きなさい。

グラフⅡ　ある路線の東京都内における主な駅周辺の住宅地１m^2あたりの土地価格（2020 年）

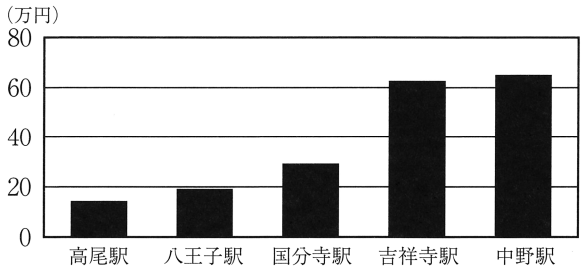

（国土交通省資料により作成）

地図Ⅱ

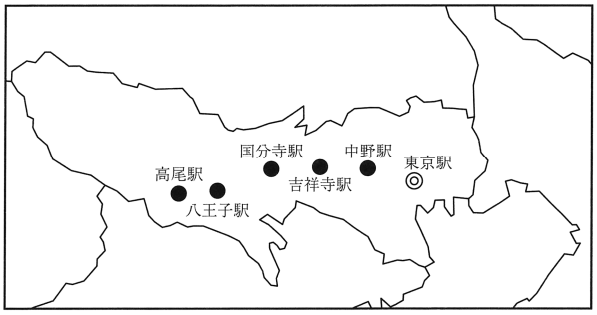

問５　次の文は，都市ｓについて述べたものである。ＸとＹにあてはまる語句の組み合わせとして適当なものを，下の**ア**～**エ**の中から一つ選びなさい。

> 関東地方に五つある［　Ｘ　］の中で最も人口が多い都市ｓは，江戸時代の終わりに港が開かれて以来，国際色豊かな都市として発展してきた。近年は，再開発によって臨海部の［　Ｙ　］に商業施設や国際会議場などがつくられ，多くの人が訪れている。

ア　Ｘ　政令指定都市　　Ｙ　幕張新都心　　**イ**　Ｘ　政令指定都市　　Ｙ　みなとみらい 21
ウ　Ｘ　県庁所在地　　Ｙ　幕張新都心　　**エ**　Ｘ　県庁所在地　　Ｙ　みなとみらい 21

問６　**地図Ⅰ**の成田国際空港について，次の①，②の問いに答えなさい。

①　右の**表Ⅱ**は，成田国際空港における輸出額，輸入額上位５品目を表している。Ｚにあてはまるものを，次の**ア**～**エ**の中から一つ選びなさい。

ア　ＩＣ（集積回路）
イ　液化ガス
ウ　衣類
エ　肉類

表Ⅱ　成田国際空港における輸出額，輸入額上位５品目（2020 年）

	輸出品	輸出額（百億円）	輸入品	輸入額（百億円）
第１位	半導体等製造装置	84.9	通信機	179.9
第２位	金（非貨幣用）	76.9	医薬品	169.5
第３位	科学光学機器	55.6	コンピュータ	125.4
第４位	電気計測機器	39.1	Ｚ	102.0
第５位	Ｚ	38.5	科学光学機器	80.6

（日本国勢図会 2021/22 年版により作成）

②　成田国際空港からスペインのマドリードまでの飛行時間が 14 時間の場合，成田国際空港を日本時間で２月５日午後２時に出発した飛行機は，マドリードに何月何日何時に到着するか。午前・午後をつけてマドリードの日付と時刻を書きなさい。ただし，スペインと日本の時差は８時間である。

[解答欄]

問１		
問２	①	
	②	
問３		
問４		
問５		
問６	①	
	②	

[問題 6]（兵庫 2022 年 2 月）

図４に関する次の問いに答えなさい。

(1) **図５**は**図４**の河川 あ ，い それぞれの月別平均流量を示しており，**図５**のＡ，Ｂは河川 あ ，い のいずれかである。河川の名称と**図５**のＡ，Ｂの組み合わせとして適切なものを，次の**ア**～**エ**から１つ選んで，その符号を書きなさい。

図５

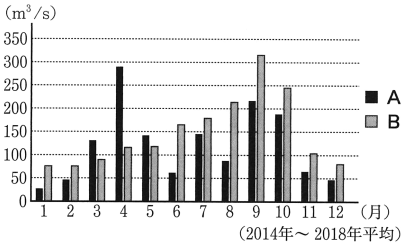

（『水文水質データベース』より作成）

図４

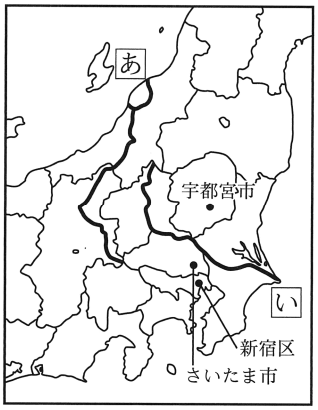

ア あ 信濃川－Ａ　い 利根川－Ｂ
イ あ 信濃川－Ｂ　い 利根川－Ａ
ウ あ 利根川－Ａ　い 信濃川－Ｂ
エ あ 利根川－Ｂ　い 信濃川－Ａ

(2) **表４**は，群馬県，千葉県，山梨県，長野県の 2019 年における農業産出額を示している。また，あ と い は，果実か畜産のいずれかの産物である。**表４**の あ の産物と，**表４**に関して述べた文の組み合わせとして適切なものを，あとの**ア**～**エ**から１つ選んで，その符号を書きなさい。

表４　（単位　億円）

産出額／県名	あ 産出額	い 産出額	キャベツ 産出額	ホウレンソウ 産出額	農業 産出総額
P	1, 248	114	70	70	3, 859
Q	279	743	50	17	2, 556
R	1, 058	83	183	82	2, 361
山梨県	78	595	2	3	914
全国	32, 344	8, 399	913	856	89, 387

（『生産農業所得統計』より作成）

a　Ｐは，農業産出総額が４県の中で最も多く，キャベツ産出額やホウレンソウ産出額も多いことから，消費地への近さを生かした農業が盛んな長野県である。

b　Ｒは，ホウレンソウ産出額と，夏でも涼しい高原の気候を生かして栽培するキャベツ産出額が４県の中で最も多いことから，群馬県である。

ア　果実・a　　**イ**　果実・b　　**ウ**　畜産・a　　**エ**　畜産・b

(3) **表５**は茨城県，栃木県，千葉県，神奈川県の 1969 年と 2019 年における化学工業，鉄鋼，電気機械器具，輸送用機械器具の各工業の製造品出荷額を示している。**表５**の ii の県と X の工業の組み合わせとして適切なものを，次の**ア**～**カ**から１つ選んで，その符号を書きなさい。

表５　（単位　億円）

工業／県名	輸送用機械器具		化学工業		X		Y	
	1969 年	2019 年	1969 年	2019 年	1969 年	2019 年	1969 年	2019 年
茨城県	409	9, 555	316	15, 905	3, 031	7, 580	1, 170	8, 110
i	457	1, 015	2, 712	22, 927	1, 411	1, 582	5, 157	14, 971
ii	639	12, 925	135	6, 998	2, 342	8, 317	250	2, 312
iii	15, 859	37, 628	6, 520	19, 071	12, 187	6, 940	4, 012	6, 332

（『工業統計調査』より作成）

ア　ii　栃木県　X　鉄鋼
イ　ii　栃木県　X　電気機械器具
ウ　ii　千葉県　X　鉄鋼
エ　ii　千葉県　X　電気機械器具
オ　ii　神奈川県　X　鉄鋼
カ　ii　神奈川県　X　電気機械器具

(4) **図６**の①～③は，**図４**の宇都宮市，さいたま市，新宿区における 2015 年の自宅外就業者のうち他市区町村への通勤者の割合と昼夜間人口比率を示している。宇都宮市と新宿区の組み合わせとして適切なものを，次の**ア**～**カ**から１つ選んで，その符号を書きなさい。

図６

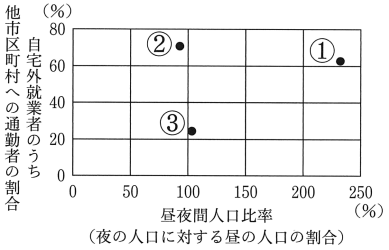

（『国勢調査資料』より作成）

ア　宇都宮市－①　新宿区－②　　**イ**　宇都宮市－①　新宿区－③
ウ　宇都宮市－②　新宿区－①　　**エ**　宇都宮市－②　新宿区－③
オ　宇都宮市－③　新宿区－①　　**カ**　宇都宮市－③　新宿区－②

(5) **図７**を見て，あとの問いに答えなさい。

図７

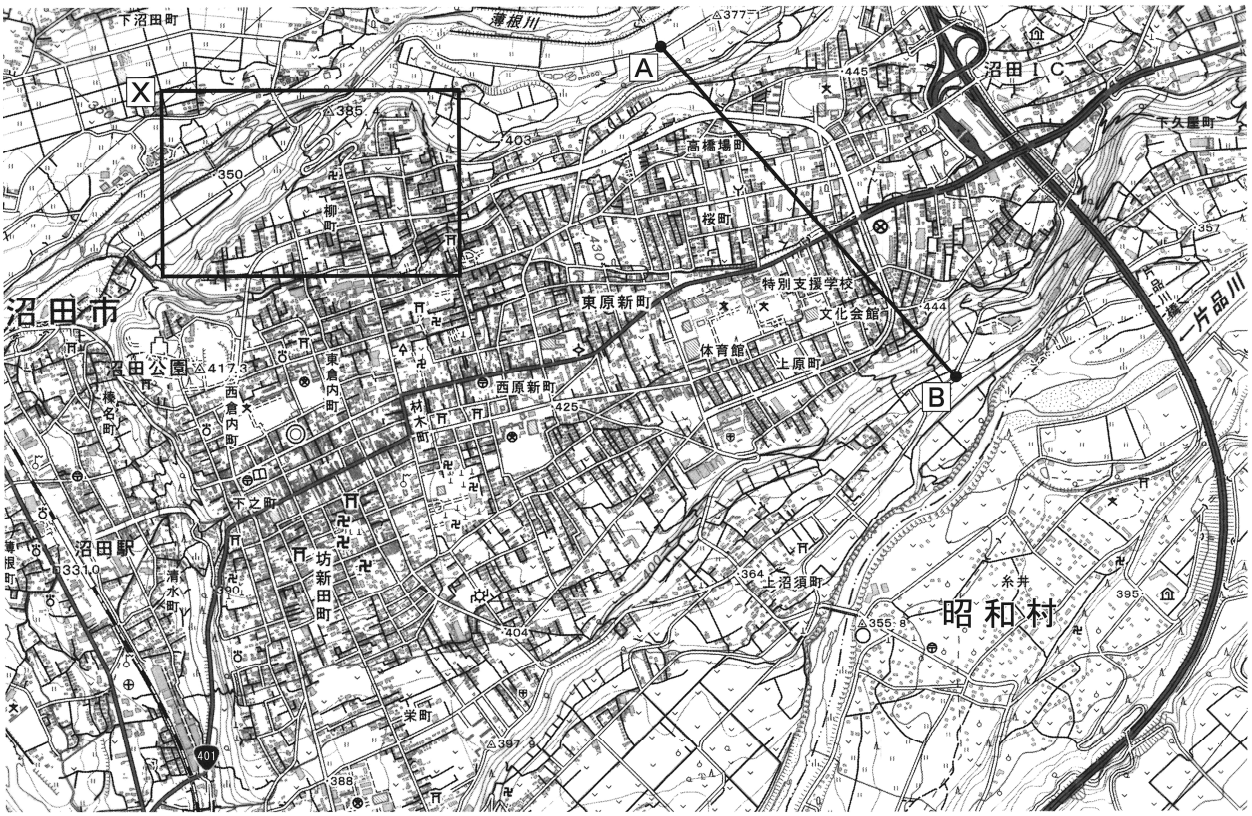

（２万５千分の１地形図「沼田」（2017 年）を一部改変）

① **図７**から読み取れることを述べた文として適切でないものを，次の**ア**～**エ**から１つ選んで，その符号を書きなさい。

ア　沼田駅は，城跡のある沼田公園より 80m以上低い土地にある。

イ　沼田ＩＣから東原新町へ進む国道沿いに警察署がある。

ウ　片品川は北東から南西に向かって流れており，川沿いに市役所がある。

エ　坊新田町付近には神社や寺院が立地している。

② **図７**の Ａ － Ｂ の断面を示した模式図として適切なものを，次の**ア**～**エ**から１つ選んで，その符号を書きなさい。

ア

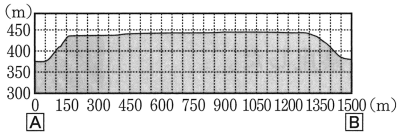

イ

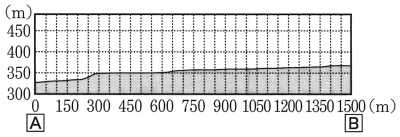

ウ

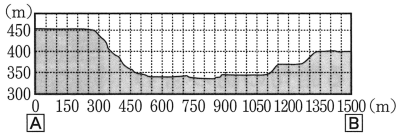

エ

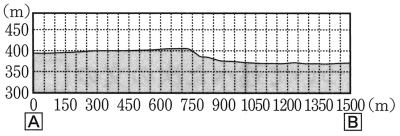

③ 図８は図７の X で示した範囲であり，■ はある災害がおこる可能性が高いところを示している。これについて述べた次の文の i ～ iii に入る語句の組み合わせとして適切なものを，あとの**ア**～**カ**から１つ選んで，その符号を書きなさい。

図８

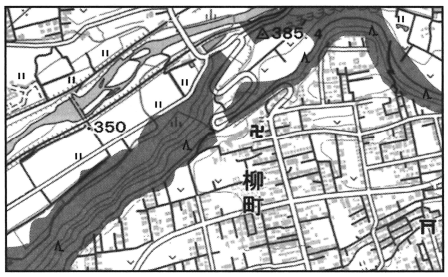

（ハザードマップポータルサイトより作成）

■ で示した土地は i になっており，ii が見られる。ここは，豪雨の際に iii が発生する可能性が高い。

ア	i	平地	ii	水田	iii	がけくずれ
イ	i	平地	ii	水田	iii	洪水
ウ	i	平地	ii	針葉樹林	iii	洪水
エ	i	急斜面	ii	水田	iii	がけくずれ
オ	i	急斜面	ii	針葉樹林	iii	がけくずれ
カ	i	急斜面	ii	針葉樹林	iii	洪水

[解答欄]

(1)		
(2)		
(3)		
(4)		
(5)	①	
	②	
	③	