[問題 1] (茨城 2022 年 2 月)

日本や身近な地域について，次の(1)～(5)の問いに答えなさい。

(1) **資料４**は，**資料５**のＡ～Ｄを含む日本の主な島の面積を示したものである。Ｂの島を，下の**ア**～**エ**の中から一つ選んで，その記号を書きなさい。

資料４　日本の主な島の面積

島	面積(km²)
A	3167
B	1489
沖縄島	1209
C	855
大島（奄美大島）	712
対馬	696
D	593

〔「日本国勢図会」2021/22 年版より作成〕

資料５

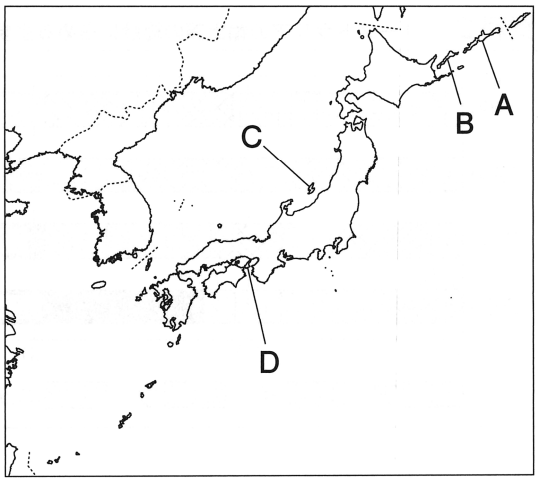

ア　国後島　　**イ**　択捉島　　**ウ**　淡路島　　**エ**　佐渡島

(2) **資料６**は，日本の人口に関する三つの主題図（テーマをもとに作られた図）である。**資料６**の［ a ］～［ c ］には，老年人口の割合（全人口に占める 65 歳以上人口の割合），人口密度，第三次産業就業者の割合（全就業者に占める第三次産業就業者の割合）のいずれかが当てはまる。［ a ］～［ c ］の組み合わせとして適切なものを，下の**ア**～**カ**の中から一つ選んで，その記号を書きなさい。

資料６　日本の人口に関する三つの主題図(2017 年)

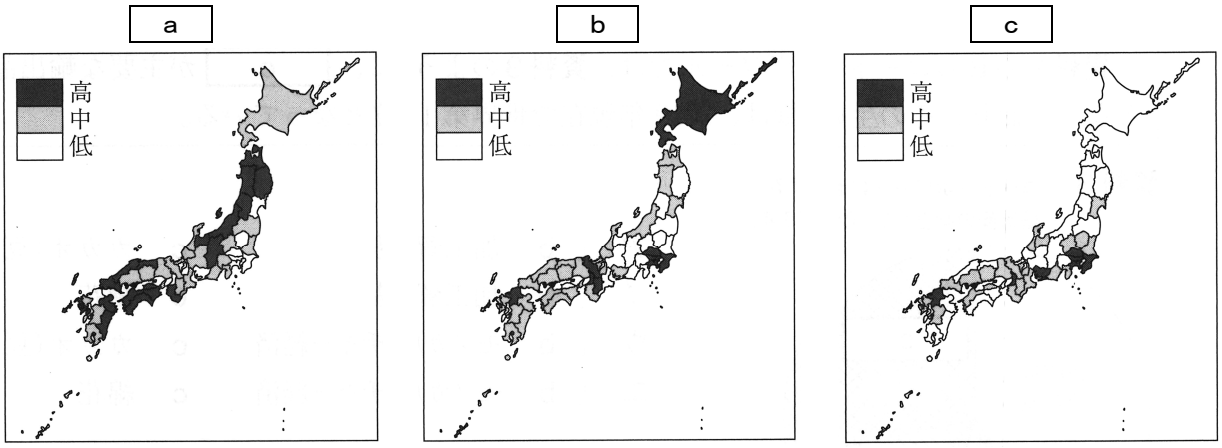

注）**資料６**の各主題の高中低の内訳は右の表のとおりとする。

	老年人口の割合	人口密度（1 km² 当たり）	第三次産業就業者の割合
高	31%以上	1000 人以上	74%以上
中	28%以上 31%未満	190 人以上 1000 人未満	65%以上 74%未満
低	28%未満	190 人未満	65%未満

〔「データでみる県勢」2019，2021 年版より作成〕

ア ［ a 第三次産業就業者の割合 b 老年人口の割合 c 人口密度 ］
イ ［ a 第三次産業就業者の割合 b 人口密度 c 老年人口の割合 ］
ウ ［ a 人口密度 b 老年人口の割合 c 第三次産業就業者の割合］
エ ［ a 人口密度 b 第三次産業就業者の割合 c 老年人口の割合 ］
オ ［ a 老年人口の割合 b 人口密度 c 第三次産業就業者の割合］
カ ［ a 老年人口の割合 b 第三次産業就業者の割合 c 人口密度 ］

(3) **資料７**は，近畿地方の２府５県についてまとめたものである。三重県に当てはまるものを，**資料７**の**ア**～**エ**の中から一つ選んで，その記号を書きなさい。また，三重県の県庁所在地名を下の**オ**～**ク**の中から一つ選んで，その記号を書きなさい。

資料７　近畿地方の２府５県のデータ(2018 年)

府県	人口密度（人/km²）	産出額			製造品出荷額（億円）	重要文化財指定件数（件）
		農業（億円）	林業（億円）	漁業(海面)（億円）		
ア	197.8	1158	40	127	27549	395
イ	4625.5	332	4	46	179052	682
ウ	561.7	704	24	39	59924	2199
エ	310.2	1113	51	446	112597	188
奈良県	362.8	407	29	―	21998	1327
滋賀県	351.6	641	11	―	81024	825
兵庫県	652.8	1544	38	523	166391	470

注）　重要文化財指定件数については，2021 年８月１日時点のものである。
〔「データでみる県勢」2021 年版，文化庁資料より作成〕

オ　大津市　　**カ**　四日市市　　**キ**　津市　　**ク**　松山市

(4) **資料８**はある地域の地形図である。**資料８**から読み取れるものとして**適切でないもの**を，下の**ア**～**エ**の中から一つ選んで，その記号を書きなさい。

資料８

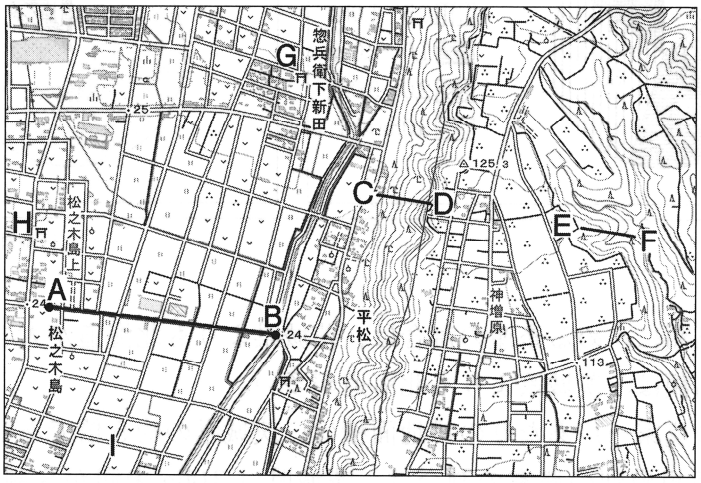

〔国土地理院発行２万５千分の１地形図「笠井」より作成〕

ア　地形図上のＡ地点からＢ地点までの長さを約３cm とすると，実際の距離は約 750m である。

イ　Ｃ－Ｄ間とＥ－Ｆ間では，Ｅ－Ｆ間の方が，傾斜が急である。

ウ　Ｇ付近の神社から見てＨ付近の神社は南西の方角にある。

エ　Ｉ付近には畑が見られる。

(5) **資料９**～**資料 12** は，茨城県と北海道の農業を比較したものである。これらの資料から読み取れるものとして**適切でないもの**を，下の**ア**～**エ**の中から一つ選んで，その記号を書きなさい。

資料９　茨城県と北海道の農業産出額に占める農産物の割合（2018 年）

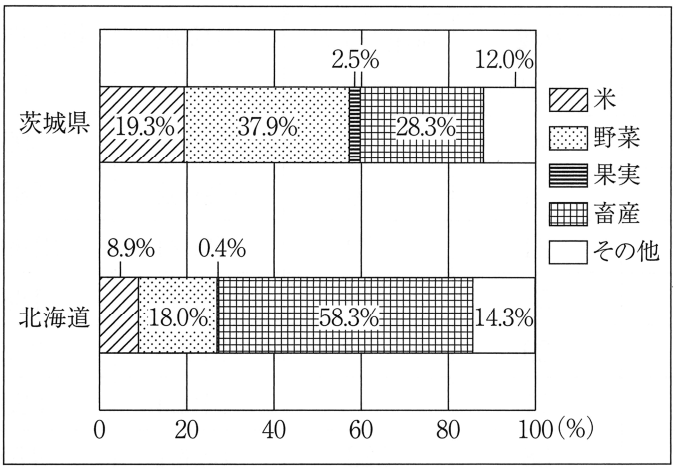

注）　割合は四捨五入しているので，合計が 100%にならない場合がある。
〔「データでみる県勢」2021 年版より作成〕

資料 10　茨城県と北海道の耕地面積と農家戸数（2015 年）

	耕地面積（ha）	農家戸数（戸）
茨城県	170900	57239
北海道	1147000	38086

〔「データでみる県勢」2017 年版より作成〕

資料 11　農業産出額の順位（2018 年）

（単位：億円）

	農業産出額	
１位	北海道	12593
２位	鹿児島県	4863
３位	茨城県	4508
４位	千葉県	4259
５位	宮崎県	3429

〔「データでみる県勢」2021 年版より作成〕

資料 12 茨城県と北海道の耕地面積規模別の農家の割合(2015 年)

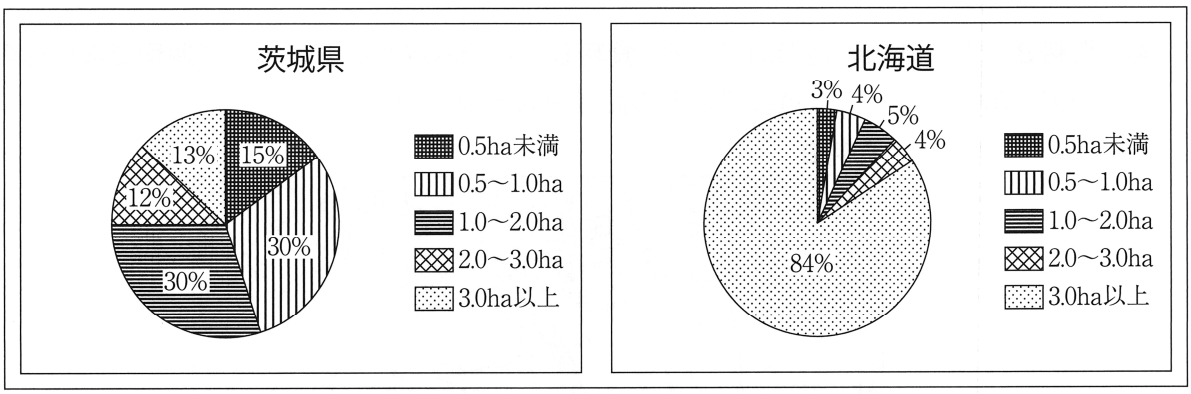

〔「地理統計要覧」2021 年版より作成〕

ア　農業産出額に占める畜産の割合は，茨城県よりも北海道が大きい。

イ　米の産出額は，茨城県よりも北海道が多い。

ウ　北海道の農家一戸あたりの耕地面積は，茨城県の約５倍である。

エ　耕地面積規模別の農家の割合は，茨城県は 3.0ha 未満が８割以上を占め，北海道は 3.0ha 以上が８割以上を占める。

[解答欄]

(1)		
(2)		
(3)	三重県	
	県庁所在地名	
(4)		
(5)		

[問題 2] (埼玉 2022 年 2 月)

Ｎさんは，地理的分野の授業で日本の諸地域を学習したあと，**地図１**を作成しました。**地図１**をみて，**問１**～**問４**に答えなさい。

地図１

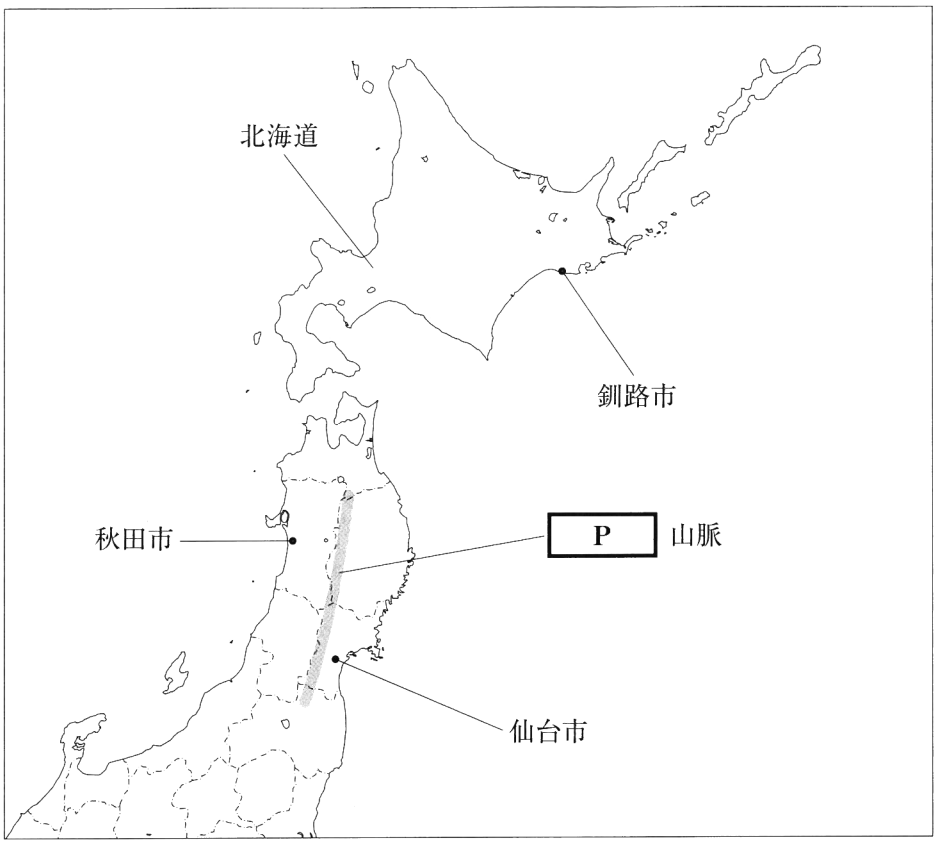

問１　Ｎさんは，**地図１**中の釧路市，秋田市，仙台市の三つの都市の気温と降水量を調べ，次のⅠ～Ⅲのグラフをつくりました。Ⅰ～Ⅲのグラフと都市の組み合わせとして正しいものを，下の**ア**～**カ**の中から一つ選び，その記号を書きなさい。

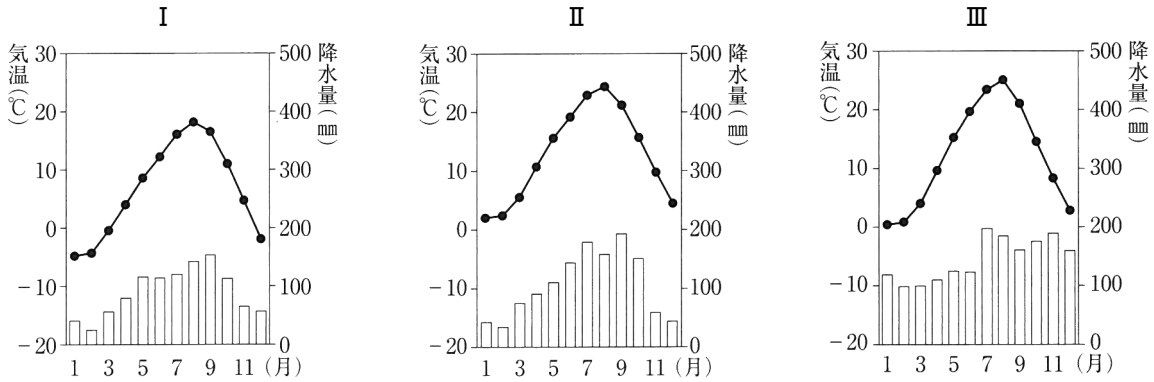

（気象庁ホームページから作成）

ア　Ⅰ－釧路市　　Ⅱ－秋田市　　Ⅲ－仙台市
イ　Ⅰ－釧路市　　Ⅱ－仙台市　　Ⅲ－秋田市
ウ　Ⅰ－秋田市　　Ⅱ－釧路市　　Ⅲ－仙台市
エ　Ⅰ－秋田市　　Ⅱ－仙台市　　Ⅲ－釧路市
オ　Ⅰ－仙台市　　Ⅱ－釧路市　　Ⅲ－秋田市
カ　Ⅰ－仙台市　　Ⅱ－秋田市　　Ⅲ－釧路市

問２　Ｎさんは，東北地方について調べ，次のようにまとめました。**まとめ**を読み，下の(1)と(2)の問いに答えなさい。

まとめ

東北地方は本州の北部に位置し，中央に［ P ］山脈がはしり，日本海側に出羽山地などが，太平洋側に北上高地などがあります。

山地からは大きな川が流れ出し，下流には平野などが広がり，山地の間には盆地などがみられます。東北地方では，これらの平野や盆地に人口が集中し，おもに平野で稲作が，盆地で果樹栽培がそれぞれさかんです。また，三陸海岸の沖合いは，たくさんの魚が集まる豊かな漁場となっています。

(1) **地図１**と**まとめ**の中の［ P ］にあてはまる語を書きなさい。

(2) **まとめ**の中の下線部に関連して，次の**表**は，東北地方の各県の，2018 年における人口，農業産出額，漁業生産量について，各県を人口の多い順に並べたものです。**表**中のＸ～Ｚには岩手県，宮城県，秋田県のいずれかがあてはまり，ａとｂには米と果実のいずれかがあてはまります。Ｘとａの組み合わせとして正しいものを，下の**ア**～**カ**の中から一つ選び，その記号を書きなさい。

表

	人口（千人）	農業産出額（億円）			漁業生産量（t）
			ａ	ｂ	
Ｘ	2316	1939	26	818	266530
福島県	1864	2113	255	798	51398
青森県	1263	3222	828	553	179515
Ｙ	1241	2727	126	582	127794
山形県	1090	2480	709	835	4308
Ｚ	981	1843	72	1036	6709

（データでみる県勢 2021 年版などから作成）

ア　Ｘ－岩手県　ａ－米　　**イ**　Ｘ－岩手県　ａ－果実
ウ　Ｘ－宮城県　ａ－米　　**エ**　Ｘ－宮城県　ａ－果実
オ　Ｘ－秋田県　ａ－米　　**カ**　Ｘ－秋田県　ａ－果実

問３　次は，**地図１**中の北海道に関連して，日本の産業の特色について学習する授業における，先生とＮさんの会話です。会話文中の［　Ｑ　］と［　Ｒ　］にあてはまることばをそれぞれ書きなさい。

Ｎさん：北海道では，牧草などの飼料を生産しながら，乳牛を飼育する酪農がさかんであることを学習しました。

先　生：そうですね。北海道を中心に各地で飼育されている乳牛からしぼり出された生乳は，乳製品などの加工用，または牛乳などの飲用として処理されています。次の**地図２**と**地図３**からは，それぞれどのようなことが読みとれますか。

地図２　2018年における加工用の処理量と全国に占める都道府県別の割合（上位６道県）

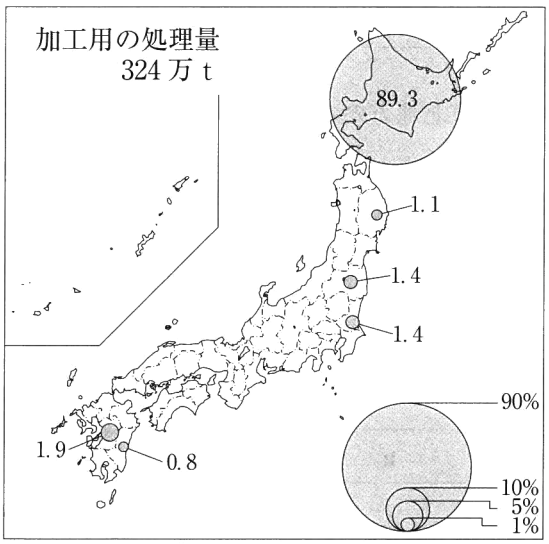

地図３　2018年における飲用の処理量と全国に占める都道府県別の割合（上位６道県）

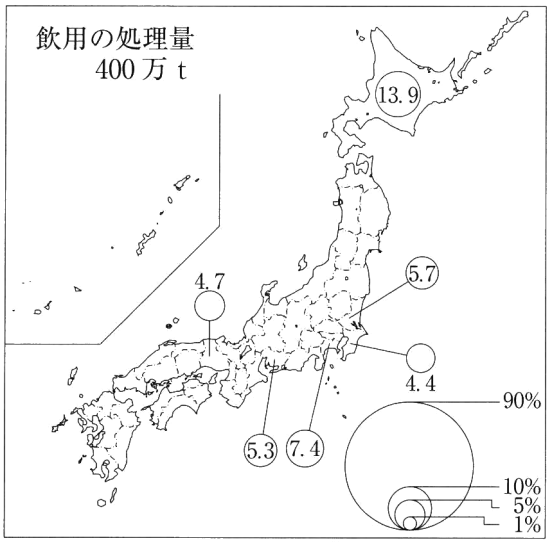

（農林水産省ホームページから作成）

Ｎさん：はい。**地図２**から，加工用の処理量は，北海道の割合がとても高いことが読みとれます。乳製品などは，おもに北海道の工場で生産されているということですね。

先　生：そのとおりです。では，**地図３**からは，どのようなことが読みとれますか。

Ｎさん：はい。**地図３**から，飲用の処理量も，加工用の処理量ほどではないですが，北海道の割合が最も高いことが読みとれます。さらに，北海道を除く上位５県の位置に着目すると，それらの県は［　Ｑ　］という共通した特色が読みとれます。

先　生：よく読みとれました。では，そのような共通した特色となる理由を説明できますか。

Ｎさん：はい。牛乳などの飲用は，乳製品などの加工用に比べて，［　Ｒ　］ため，工場で処理して出荷されてからできるだけ早く消費者に届けられる必要があります。よって，牛乳などは，おもに［　Ｑ　］ところの工場で生産されている傾向があると考えられます。

先　生：そのとおりです。このように日本の産業は，各地との結びつきで成り立っていることがわかりますね。

問４　次の**地図４**は，**地図１**中の北海道の一部を示した２万５千分の１の地形図です。**地図４**から読みとれる内容を述べた文として下線部が正しいものを，下の**ア**～**オ**の中から**すべて**選び，その記号を書きなさい。

地図４

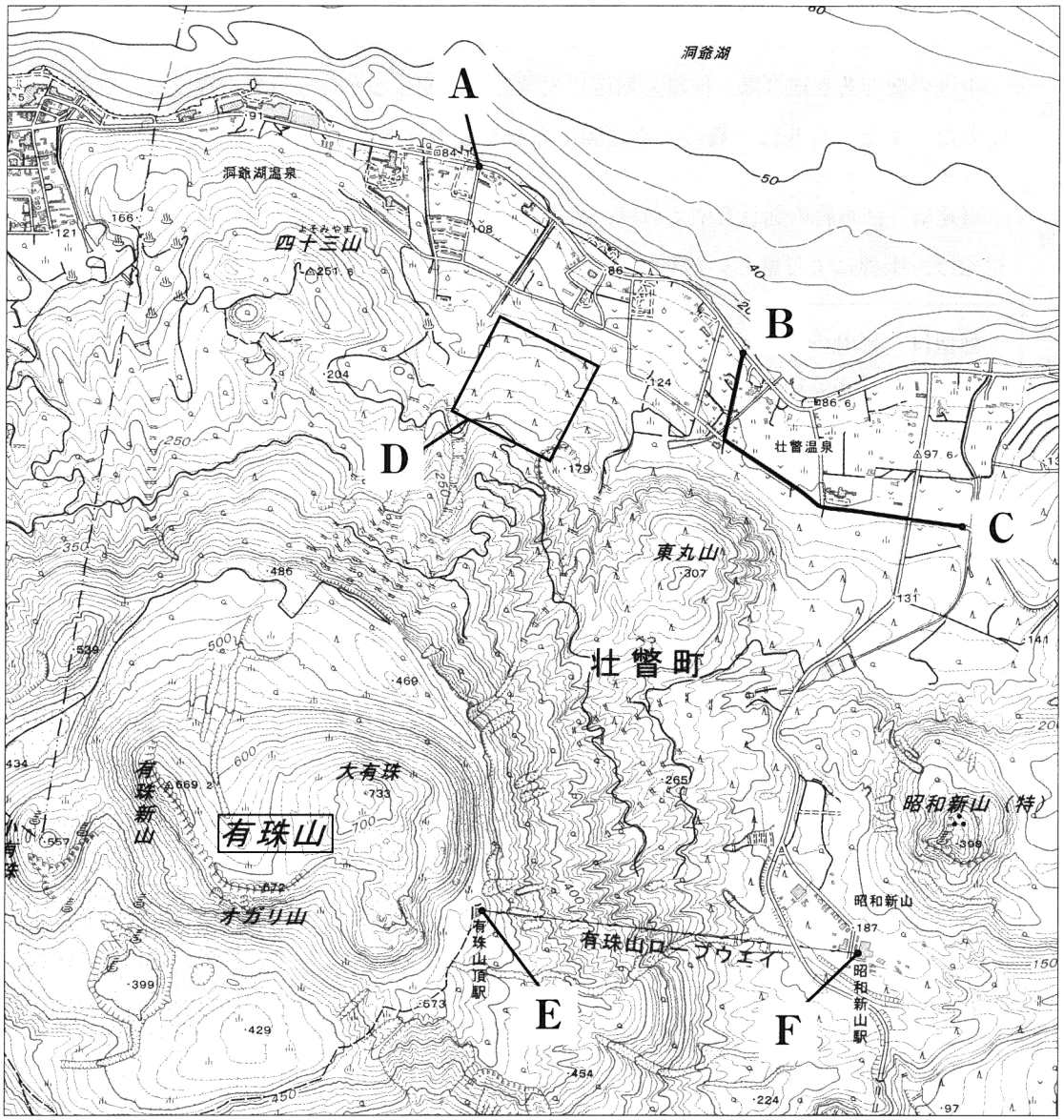

（国土地理院２万５千分の１地形図「洞爺湖温泉」平成 27 年発行一部改変）

ア　Ａ地点からＢ地点まで最短の道のりで移動する途中，<u>進行方向左側に洞爺湖がある</u>。

イ　Ｂ地点からみると，有珠山は，<u>およそ南東の方向にある</u>。

ウ　Ｂ地点からＣ地点までの道のりは，地図上で約５cm であり，実際の道のりは<u>約 1250ｍである</u>。

エ　Ｄの範囲内には，<u>広葉樹林がみられる</u>。

オ　Ｅ地点の有珠山頂駅の標高とＦ地点の昭和新山駅の標高の差は，<u>300ｍ以上である</u>。

[解答欄]

問１		
問２	(1)	山脈
	(2)	
問３	Q	
	R	
問４		

[問題 3] (秋田 2022 年 2 月)

次の**地図**と**図**，**表**を見て，**問１～問４**の問いに答えなさい。

地図

図１

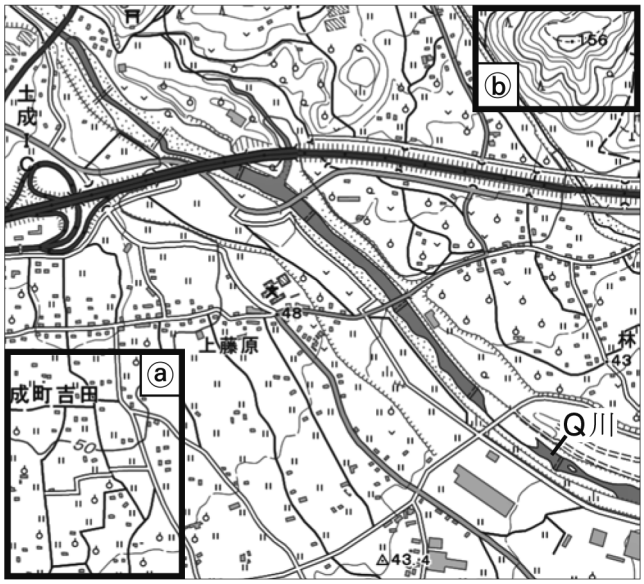

(「国土地理院電子地形図 25000」を加工して作成)

問１　**地図**の [X] にあてはまるものを，一つ選んで記号を書きなさい。

ア　讃岐　　**イ**　濃尾　　**ウ**　越後　　**エ**　石狩

問２　**図１**は，**地図**のＰ川の支流であるＱ川付近の地形図の一部である。

①　Ｑ川はどの方角からどの方角へ流れているか，一つ選んで記号を書きなさい。

ア　北東から南西　　**イ**　南東から北西　　**ウ**　北西から南東　　**エ**　南西から北東

②　次の文の [Y] に入る適切な内容と，[Z] にあてはまる語を，それぞれ書きなさい。

> **図１**のⓐの範囲は，ⓑよりも土地の傾斜が [Y] であり，水田や [Z] が広がっている。

問３　**表１**の㋐～㋓は，**地図**の四つの港湾・空港のいずれかを表している。関西国際空港を示すものを，一つ選んで記号を書きなさい。

表１　四つの港の主な輸出品目と輸出額(2019 年)

	輸出額の上位品目	輸出額(億円)
㋐	集積回路，電気回路用品，*1科学光学機器	51 872
㋑	自動車，自動車部品，*2内燃機関	69 461
㋒	自動車，自動車部品，内燃機関	123 068
㋓	プラスチック，建設・鉱山用機械，内燃機関	55 571

*1カメラ，レンズ，計測機器など　　*2エンジン

(「日本国勢図会 2020/21 年版」などから作成)

問４　国内輸送に関する問題である。

①　**表２**のＡ～Ｄは，鉄道，自動車，船舶，航空のいずれかの輸送機関を表している。Ｂにあてはまる輸送機関を書きなさい。

表２　国内の*旅客輸送量の輸送機関別割合(%)

	A	B	C	D
1965 年	31.6	66.7	0.8	0.9
2017 年	62.8	30.4	6.6	0.2

*輸送時の人数に輸送距離をかけたもの

(「日本国勢図会 2020/21 年版」などから作成)

② **図２**と**図３**から読みとれる貨物輸送の特色を，解答欄にしたがって書きなさい。

図２　国内の*1貨物輸送量に対する*2エネルギー消費量の割合

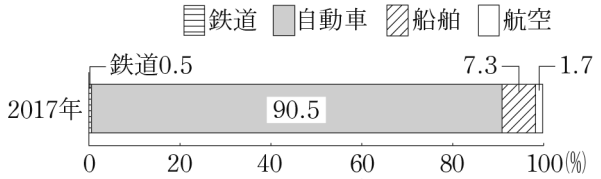

*1 輸送時の重量に輸送距離をかけたもの
*2 使用したエネルギー（石油，石炭など）を熱量で表したもの

図３　国内の貨物輸送量の割合の変化

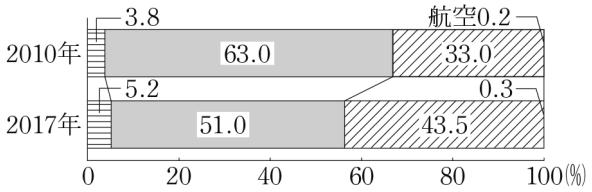

※**図３**の凡例は**図２**に同じ。
（**図２**，**図３**は「日本国勢図会 2020/21 年版」などから作成）

[解答欄]

問１			
問２	①		
	②	Y	
		Z	
問３			
問４	①		
	②		

[問題 4]（神奈川 2022 年 2 月）

長野県の産業について興味をもったＫさんは，次の**資料１～資料４**を集めた。

これらについて，あとの各問いに答えなさい。

資料１　中部地方における県ごとの就業者数と産業別就業者数の割合（2017 年）（就業者数の単位：万人）

	新潟県	富山県	石川県	福井県	山梨県	長野県	岐阜県	静岡県	愛知県
就業者数	116.5	55.4	61.0	42.2	44.2	111.2	105.9	194.5	406.9
第１次産業	5.3%	2.7%	2.9%	3.5%	6.9%	8.5%	3.4%	3.3%	2.1%
第２次産業	29.7%	33.9%	28.2%	31.4%	28.3%	28.7%	32.6%	33.4%	32.7%
第３次産業	65.1%	63.4%	68.9%	65.1%	64.8%	62.7%	64.1%	63.3%	65.3%

（『データでみる県勢　2020 年版』をもとに作成）

※　小数第２位を四捨五入しているため，県ごとの産業別就業者数の割合の合計が 100%にならないことがある。

資料２　長野県におけるレタス生産及び他の都道府県への出荷についての説明

○　長野県では，６月上旬から 10 月上旬までレタスの生産がさかんです。長野県のレタスの生産量は，全国第１位です。

○　早朝に収穫して，その日のうちに東京・大阪・名古屋等の大都市圏に出荷します。輸送中に野菜が傷まないように，専用のトラックで運びます。

資料３　レタスの生産量上位３県から東京へ出荷されるレタスの量（2020 年）

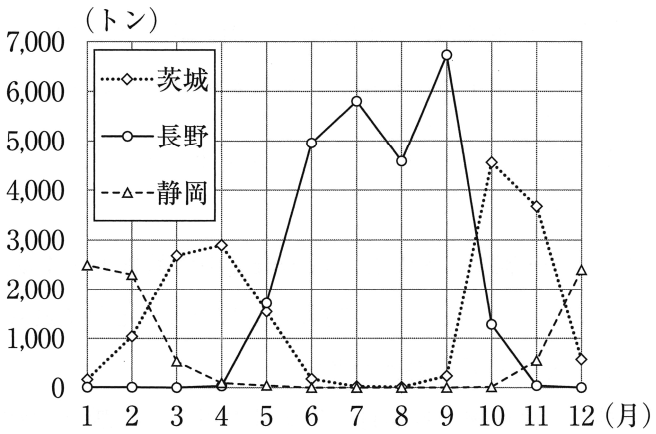

（東京都中央卸売市場ウェブサイト掲載資料をもとに作成）

資料４　長野県白馬村における外国人観光客の延べ宿泊者数の推移　（単位：人）

区分＼年	2015	2016	2017	2018	2019
アジア	33,499	36,596	50,654	57,871	67,113
北アメリカ	7,172	6,762	9,083	16,558	21,444
ヨーロッパ	5,162	6,117	7,017	9,793	9,147
オセアニア	53,517	53,868	46,048	78,756	170,739

（白馬村ウェブサイト掲載資料をもとに作成）

問１　**資料１**に関して，次の**産業の名称Ｘ～Ｚ**のうち第１次産業に分類されるものと，**資料１**から**読み取れること**について説明した文ａ，ｂの組み合わせとして最も適するものを，あとの１～６の中から一つ選び，その番号を答えなさい。

産業の名称	Ｘ　サービス業　　Ｙ　建設業　　Ｚ　林業
読み取れること	ａ　中部地方において，第２次産業の就業者数が最も多いのは富山県である。 ｂ　中部地方における第３次産業の就業者数は，600 万人を上回っている。

１　Ｘとａ　　２　Ｘとｂ　　３　Ｙとａ　　４　Ｙとｂ　　５　Ｚとａ　　６　Ｚとｂ

問２　長野県におけるレタス生産及び他の都道府県への出荷について説明したものとして**適切でないもの**を，**資料２**，**資料３**の内容を参考にしながら，次の１～４の中から一つ選び，その番号を答えなさい。

１　標高が高く夏でも冷涼な気候を生かすことができる地域で，レタスが生産されている。

２　国内の他の産地から東京へのレタスの出荷量が多くなる時期に，長野県からの出荷量も多くなる。

３　道路網の整備を背景として，収穫したその日のうちにレタスを大都市圏に届けられるようになった。

４　保冷車の普及を背景として，鮮度を保ったままレタスを大都市圏に届けられるようになった。

問３　**資料４**から読み取れることについて説明したものとして最も適するものを，次の１～４の中から一つ選び，その番号を答えなさい。

１　2015 年の延べ宿泊者数の合計は，15 万人を上回っている。

２　2015 年から 2019 年にかけて，年ごとの延べ宿泊者数は，すべての区分で増加し続けている。

３　「アジア」と「オセアニア」を比べたとき，「2015 年の延べ宿泊者数」に対する「2015 年から 2019 年にかけて増加した延べ宿泊者数」の割合が高いのは，「オセアニア」である。

４　「北アメリカ」と「ヨーロッパ」はどちらも，「2019 年の延べ宿泊者数」が「2015 年の延べ宿泊者数」の２倍を上回っている。

問４　次の**地形図**は，長野県白馬村の一部を示したものである。この**地形図**から読み取れることについて説明したものとして最も適するものを，あとの１～４の中から一つ選び，その番号を答えなさい。

地形図

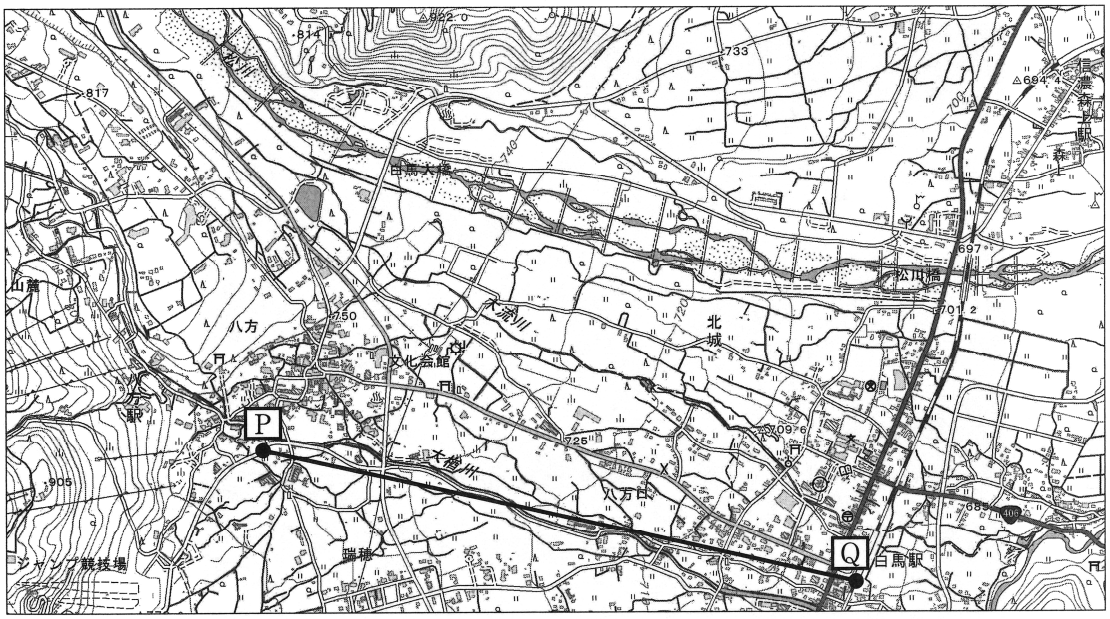

（「２万５千分の１の電子地形図　国土地理院作成（令和３年調製）」一部改変）

１　４方位で考えると，「白馬大橋」の西側には，「田」が広がっている。

２　８方位で考えると，「町・村役場」からみて北西の方位に「消防署」がある。

３　P で示した地点の標高は，800mをこえている。

４　P ― Q の地図上の長さが８cm であるとすると，実際の距離は２km である。

[解答欄]

問１	
問２	
問３	
問４	

[問題 5]（石川 2022 年 2 月）

次の**略地図**を見て，下の各問に答えなさい。

問１　**略地図**の地域に広がる台地は，富士山などの火山灰が堆積した赤土におおわれている。この赤土を何というか，書きなさい。

略地図

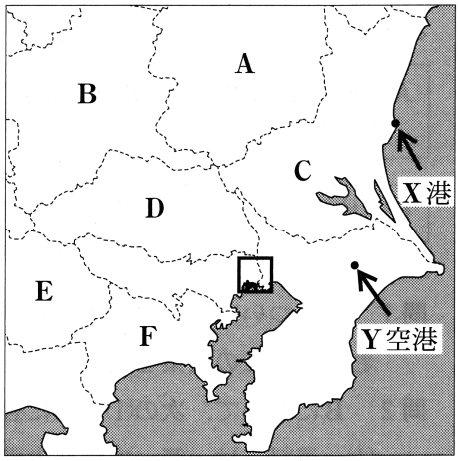

問２　次のａ，ｂの文は，**略地図**のＸ港，Ｙ空港について述べたものである。それぞれの文について，正しいものには○を，誤っているものには×を書きなさい。

ａ　北関東工業地域で工業出荷額が最大であるのは化学工業であり，Ｘ港からの輸出が増加している。

ｂ　輸出と輸入を合わせた貿易額は，日本の港や空港の中では，Ｙ空港が最大である。

問３　**資料１**は，**略地図**のＡ県で行われているいちごの生産方法について述べたものである。出荷時期をこのようにずらす栽培方法を何というか，書きなさい。

資料１

Ａ県では，いちごをクリスマスに合わせて出荷するために，夏から高原や冷房のある施設で苗を育て始め，秋にビニールハウス内に移して，照明をあてて栽培する。

＜参考＞いちごは露地栽培では，夏ごろから苗を育て翌年の春に実を収穫する。

（Ａ県ホームページより作成）

問４　**資料２**は，**略地図**のＢ～Ｄ県の発電量の内訳を示したものである。**ア**，**ウ**にあてはまる県はどれか，Ｂ～Ｄからそれぞれ１つ選び，その符号を書きなさい。また，その県名を書きなさい。

資料２　（2018 年度）（百万 kWh）

県	火力	水力	太陽光	その他
ア	33, 948	68	869	168
イ	609	256	44	1
ウ	170	3, 861	236	0

（「データで見る県勢」より作成）

問５　**資料３**は，**略地図**のＥ県とＦ県の夜間人口 100 に対する昼間人口の割合を示したものである。Ⅱにあてはまる県はＥ，Ｆのどちらか，その符号を書きなさい。また，そのように判断した理由を，その県の人の移動に着目して書きなさい。

資料３　（2015 年）

県	Ⅰ	Ⅱ
割合	99. 2	91. 2

（「データで見る県勢」より作成）

問６　**資料４**は，**略地図**の □ の地域に位置するＺ区が作成した水害ハザードマップで呼びかけている内容である。Ｚ区が**資料４**の下線部のような呼びかけを行うのはなぜだと考えられるか，**資料４**，**資料５**，**資料６**を関連づけて書きなさい。

資料４

巨大台風や大雨が予測されるとき，どうすればいいでしょうか。

●区内にとどまるのは危険です！

頑丈なビルやマンションなどの高いところにいたとしても，Ｚ区やその周辺地域の外へ避難しましょう。

（Ｚ区ホームページより作成）

資料５　□ の地域におけるＺ区の位置

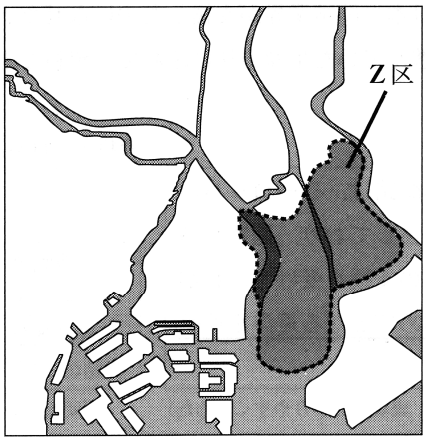

資料６　□ の地域の海面からの高さ（m）

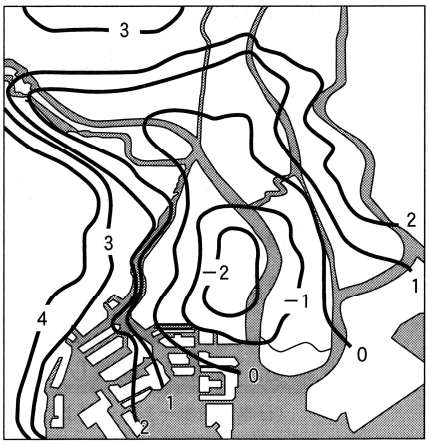

（**資料５**，**資料６**は東京都建設局ホームページより作成）

[解答欄]

問１				
問２	a		b	
問３				
問４		符号	県名	
	ア		県	
	ウ		県	
問５	符号			
	理由			
問６				