第５章	公民（3 年）	高校入試過去問題	現代の民主政治 現代の民主政治	3300

[問題 1]（愛媛 2022 年 2 月）

次の**問１**～**問４**の問いに答えなさい。

問１　人権の国際的な広がりについて述べた次の文の①，②の｛　｝の中から適当なものを，それぞれ一つずつ選び，その記号を書け。

> 1948 年に，①｛**ア**　世界人権宣言　　**イ**　国際連合憲章｝が採択され，人権保障の国際的な基準が示された。その後，1966 年には，②｛**ウ**　権利章典　　**エ**　国際人権規約｝が採択され，この条約を結んだ国に人権の保障が義務付けられた。

問２　我が国における，国会や選挙のしくみについて，(1)～(3) の問いに答えよ。

(1) 次の図は，ある年の国会の動きを模式的に表したものであり，図中の ▨，□，▤ 印で示した期間は，それぞれ，種類の異なる国会の会期を表している。□ 印で示した期間に開かれていた国会の種類の名称を書け。

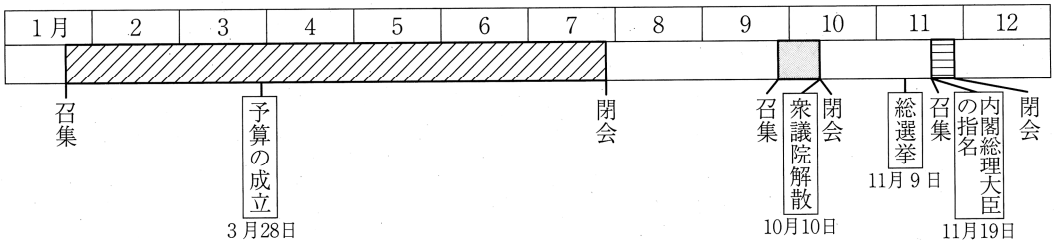

(2) 衆議院と参議院に共通することがらについて述べた文として適当なものを，**ア**～**エ**から一つ選び，その記号を書け。

ア　任期６年の議員によって組織される。　　**イ**　解散されることがある。

ウ　内閣不信任を決議する権限を持つ。　　**エ**　国政調査権を持つ。

(3) 衆議院議員総選挙について述べた次の文のＸの｛　｝の中から適当なものを一つ選び，その記号を書け。また，Ｙに当てはまる適当な言葉を書け。

> 現在の衆議院議員総選挙は，一つの選挙区からＸ｛**ア**　１人　　**イ**　２～５人｝の議員が選出される小選挙区制と，得票数に応じて議席が政党に配分される［　Ｙ　］制とを組み合わせた，小選挙区［　Ｙ　］並立制で行われている。

問３　最高裁判所が「憲法の番人」と呼ばれるのは，法律や政令などが［　　］を最終的に決定する権限を持つ機関だからである。［　　］に適当な言葉を書き入れて文を完成させよ。ただし，［　　］には，［憲法］の言葉を含めること。

問４　次の表は，我が国の，2019 年度における，主なメディアの１日当たりの利用時間を，年齢層別に表したものである。表から読み取れることを述べた文として適当なものを，**ア**～**エ**から一つ選び，その記号を書け。

（単位：分）

	項目＼年齢層		10 歳代	20 歳代	30 歳代	40 歳代	50 歳代	60 歳代
平日	テレビ	リアルタイム視聴	69.0	101.8	124.2	145.9	201.4	260.3
		録画視聴	14.7	15.6	24.5	17.8	22.5	23.2
	インターネット		167.9	177.7	154.1	114.1	114.0	69.4
	新聞		0.3	1.8	2.2	5.3	12.0	22.5
	ラジオ		4.1	3.4	5.0	9.5	18.3	27.2
休日	テレビ	リアルタイム視聴	87.4	138.5	168.2	216.2	277.5	317.6
		録画視聴	21.3	23.0	31.0	37.5	48.0	28.1
	インターネット		238.5	223.2	149.5	98.8	107.9	56.1
	新聞		0.1	0.9	2.5	6.0	12.9	21.8
	ラジオ		0.0	1.2	2.0	5.0	6.6	18.5

（注）利用時間は，平均時間を表している。　（2021-22 年版　日本国勢図会ほかによる）

ア　表中の全ての年齢層において，平日，休日ともに，ラジオの利用時間よりも新聞の利用時間の方が長い。

イ　10 歳代と 20 歳代では，それぞれ，平日，休日ともに，リアルタイム視聴と録画視聴とを合わせたテレビの利用時間よりも，インターネットの利用時間の方が長い。

ウ　60 歳代では，平日，休日ともに，インターネットの利用時間よりも，新聞とラジオとを合わせた利用時間の方が長い。

エ　表中の四つのメディアはいずれも，平日，休日ともに，年齢層が上がるほど利用時間が長くなっている。

[解答欄]

<table>
<tr><td rowspan="2">問１</td><td>①</td><td colspan="2"></td></tr>
<tr><td>②</td><td colspan="2"></td></tr>
<tr><td rowspan="4">問２</td><td>(1)</td><td colspan="2"></td></tr>
<tr><td>(2)</td><td colspan="2"></td></tr>
<tr><td rowspan="2">(3)</td><td>X</td><td></td></tr>
<tr><td>Y</td><td></td></tr>
<tr><td>問３</td><td colspan="3">を</td></tr>
<tr><td>問４</td><td colspan="3"></td></tr>
</table>

[問題 2] (岡山 2022 年 2 月)

真紀さんのクラスでは，「公正な社会に向けて」というテーマで調べ，発表する学習を行いました。

次の**図**は，学習のはじめにテーマからイメージしたことをまとめたものであり，各班はこの**図**の中から調べ

る内容を決めました。**問１～問５**に答えなさい。

図

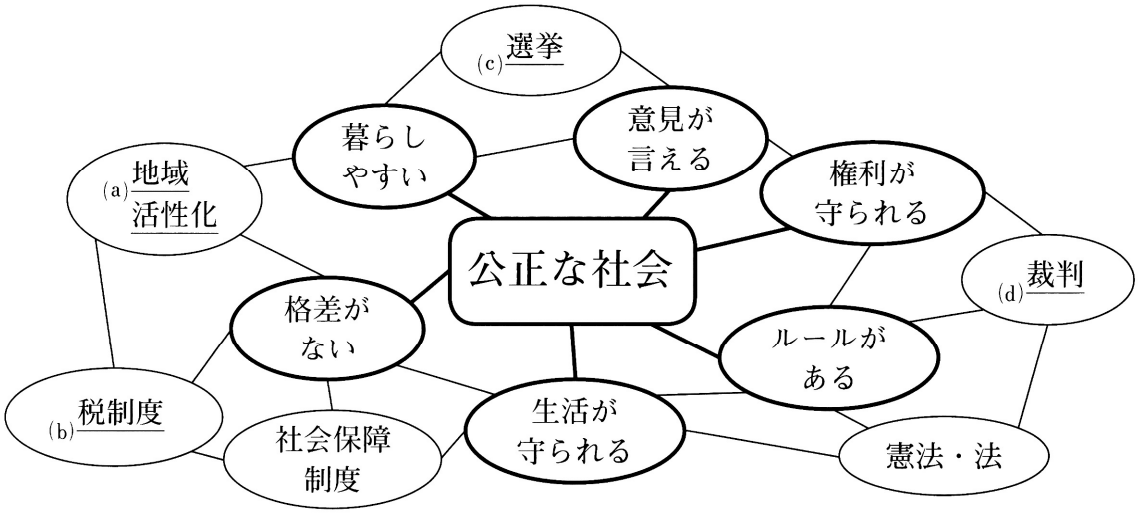

問１　下線部(a)について，１班が発表を行いました。(1)，(2)に答えなさい。

(1) 次の**資料１**は，１班が作成した，自分たちが暮らすＡ県と近隣のＢ県の歳入を示したグラフです。**資料１**について説明した次のＸとＹの文について，内容の正誤を表したものとして最も適当なのは，**ア**～**エ**のうちではどれですか。一つ答えなさい。ただし，**資料１**の「その他」は依存財源に含めないものとします。

資料１

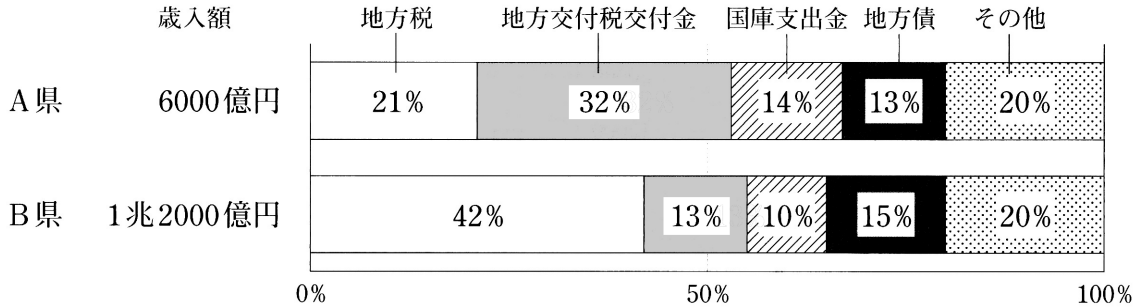

Ｘ　歳入に占める依存財源の割合は，Ａ県の方がＢ県よりも高い。

Ｙ　地方公共団体間の財政の格差を減らすために国から配分された資金の額は，Ａ県の方がＢ県よりも多い。

ア　Ｘ，Ｙのどちらも正しい。　　**イ**　Ｘのみ正しい。

ウ　Ｙのみ正しい。　　**エ**　Ｘ，Ｙのどちらも誤っている。

(2) １班は，発表の中で，日本における地方自治について説明しました。内容が誤っているのは，**ア**～**エ**のうちではどれですか。一つ答えなさい。

ア　住民の直接選挙で地方議会の議員が選ばれ，地方議会で首長が選出される。

イ　住民には，直接民主制の考え方が取り入れられた直接請求権が認められている。

ウ　住民は，必要数の有権者の署名を集めることで首長の解職を請求できる。

エ　住民は，必要数の有権者の署名を集めることで条例の制定を請求できる。

問２　下線部(b)について調べた２班は，日本の所得税における課税対象の所得と税率の区分を示した**表**を用いて，次のように発表しました。**表**の［　X　］に当てはまるのは，**ア**と**イ**のどちらですか。一つ答えなさい。また，文章の［　　Y　　］に当てはまる適当な内容を，課税の仕組みの名称を含めて書きなさい。

表

課税対象の所得	税率	**ア**	**イ**
4,000 万円超	X	5%	45%
1,800 万円超～4,000 万円以下	X	10%	40%
900 万円超～1,800 万円以下	X	20%	33%
695 万円超～900 万円以下	X	23%	23%
330 万円超～695 万円以下	X	33%	20%
195 万円超～330 万円以下	X	40%	10%
195 万円以下	X	45%	5%

消費税は，すべての人が同じ税率で税を負担することから，逆進性があるとの指摘があります。一方で，所得税は，**表**のように［　　Y　　］しています。こうした性格の異なる税を組み合わせ，公正な税の負担を目指しているのだと考えました。

問３　下線部(c)について調べた３班は，選挙の原則について，資料を用いて次のように説明しました。［　　］に当てはまることばを書きなさい。

公正な選挙のため，日本国憲法で定められた選挙の原則の一つに，［　　］選挙があります。この原則により，現在の国会議員の選挙などでは，**資料２**のような，投票者の氏名を書く欄のない投票用紙を用います。

資料２



問４　下線部(d)について，４班が発表を行いました。(1)，(2)に答えなさい。

(1) 発表では，日本の司法の制度について説明しました。内容が誤っているのは，ア～エのうちではどれですか。一つ答えなさい。

ア　間違った判決を防ぎ，人権を守るための仕組みとして，一つの内容について３回まで裁判を受けられる制度がある。

イ　一部の裁判員の判断が判決に大きな影響を与えることもあるため，殺人などの重大事件は裁判員裁判の対象から除かれる。

ウ　公正な裁判の実施のために，裁判所は国会や内閣からの干渉を受けないという原則がある。

エ　裁判を国民にとってより身近で利用しやすくするため，司法制度改革が進められてきている。

(2) 日本の裁判所がもつ権限について説明した次の文章の［　　］に当てはまる適当な内容を書きなさい。

> 裁判所には，内閣が定める命令，規則，処分や，国会が制定する法律が［　　］する権限があります。特に，最高裁判所は，最終的な決定権をもつことから「憲法の番人」とも呼ばれます。

問５　次は，学習の終わりに真紀さんが書いたふり返りの一部です。(1)，(2)に答えなさい。

> 今回の学習を終え，私は「持続可能な開発目標（ＳＤＧｓ）」についての授業を思い出しています。目標の達成に向け，(e)国際連合（国連）や各国の政府だけでなく，(f)非政府組織や企業，そしてわたしたち市民が協力して取り組むことが重要だと学習しました。公正な社会の実現に向けても，一人一人が自分に何ができるのかを考え，実際に行動していくことが大切なのだと思います。

(1) 下線部(e)について述べた文として最も適当なのは，ア～エのうちではどれですか。一つ答えなさい。

ア　各国の保護貿易の強化をおもな目的として設立された国際機構である。

イ　総会で加盟国が投票できる票数は，国連予算の分担の割合によって異なる。

ウ　日本は常任理事国として安全保障理事会に参加し，重要な役割を担っている。

エ　国際法上の問題に関する紛争についての裁判を行う機関が設置されている。

(2) 下線部(f)をアルファベットの略称で書きなさい。

[解答欄]

問１	(1)	
	(2)	
問２	X	
	Y	
問３	選挙	
問４	(1)	
	(2)	
問５	(1)	
	(2)	

[問題 3] (熊本 2022 年 2 月)

圭太(けいた)さんのクラスでは，社会科の学習のまとめとして，法や政治がどのように人権を守っているかについて，班に分かれて調べた。**表 24** は，班ごとに調べたテーマをまとめたものの一部である。次の各問いに答えなさい。

表 24

班	テーマ
Ⅰ	①日本国憲法と人権
Ⅱ	②政治と人権
Ⅲ	③共生社会と人権
Ⅳ	④司法と人権

問 1　下線部①について，(1)，(2) の問いに答えなさい。

(1) 日本国憲法に掲げられている三つの基本原理は，[a]，基本的人権の尊重，[b] である。[a]，[b] に当てはまる語を，それぞれ書きなさい。

(2) **表 25** は，「公共の福祉」により人権が制約される例と，その根拠とされる法律をまとめたものである。[a]，[b] に当てはまる人権として最も適当なものを，下の**ア**～**オ**からそれぞれ一つずつ選び，記号で答えなさい。

表 25

人　権	制約される例	根拠とされる法律
[a]	他人の名誉を傷つける行為の禁止	刑法
[b]	感染症による入院措置	感染症法

ア　思想・良心の自由　　**イ**　信教の自由　　**ウ**　表現の自由
エ　苦役からの自由　　**オ**　居住・移転の自由

問 2　下線部②について，**表 26** と**表 27** は，圭太さんのクラスの授業で，衆議院議員総選挙において，どのように政党の議席数や当選者が決定されるかを考えるためにモデルとして作られた資料である。**表 26** は，定数が 6 人の比例代表制の選挙区における政党別の得票数と，得票数をもとにドント式（方式）で計算した結果を示したものであり，**表 27** は，小選挙区制の選挙区における候補者別の得票数の結果を示したものである。(1)，(2) の問いに答えなさい。

表 26

政党名	A 党	B 党	C 党	D 党
得票数(票)	19392	12096	39936	24960
÷ 1	19392	12096	39936	24960
÷ 2	9696	6048	19968	12480
÷ 3	6464	4032	13312	8320
÷ 4	4848	3024	9984	6240

表 27

候補者	X 氏	Y 氏	Z 氏
得票数	3207	4123	1833

(1) **表 26** の結果から，この選挙においてＡ党～Ｄ党の各政党に配分される議席数を，それぞれ書きなさい。

(2) 比例代表制の特徴のうち，**表 26** と**表 27** のそれぞれにおける各政党や各候補者の得票数と選挙結果の比較から読み取れる特徴を，読み取ったことにふれながら**多様な意見**ということばを用いて書きなさい。

問３　下線部③について，**資料 28** は，熊本県知事による記者会見のようすである。熊本県では，共生社会の実現に向け，社会的な障壁を取り除くためのさまざまな取り組みや対応を行っている。**資料 28** には，どのような対応が見られるか，書きなさい。

資料 28



問４　下線部④について，**図 29** は，ある裁判における法廷内の座席の配置を示したものであり，Ａ～Ｃには，裁判官，検察官，弁護人のいずれかが当てはまる。この裁判に関する次の**ア**～**ウ**のそれぞれの文について，正しいものには○を，誤っているものには×を書きなさい。

ア　この裁判所のＡは，国民審査の結果，辞めさせられることがある。

イ　この裁判で，警察と協力して捜査を行い，被告人を起訴したのはＣである。

ウ　被告人は，この裁判の判決に納得できない場合は，上告することができる。

図 29

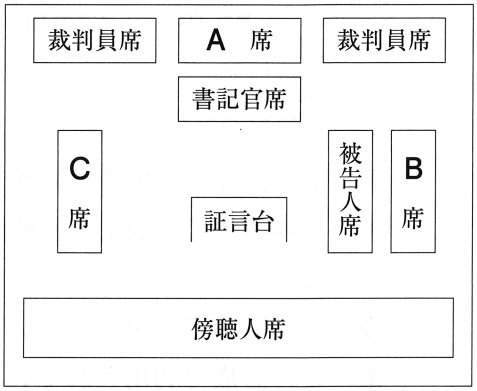

[解答欄]

問１	(1)	a	
		b	
	(2)	a	
		b	

問２	(1)	Ａ党	Ｂ党	Ｃ党	Ｄ党
		議席	議席	議席	議席
	(2)				

問３			

問４	ア	イ	ウ

[問題 4] (佐賀 2022 年 2 月)

中学生のかなみさんとじろうさんは，日本の政治に関することを学習した。**問１～問６**の各問いに答えなさい。

問１　かなみさんは将来，裁判員になる可能性があると考え，日本の裁判制度について学んだ。日本の裁判制度に関する**メモ１**の①，②について述べた文として最も適当なものを，下の**ア～エ**の中から一つ選び，記号を書きなさい。

メモ１

① 裁判官は，自分の良心と憲法・法律にのみ従って裁判を行う。
② 刑事裁判に関して，被疑者や被告人は検察官の助けを得られる権利が保障されている。

ア　①，②どちらも正しい。　　**イ**　①のみ正しい。
ウ　②のみ正しい。　　**エ**　①，②どちらも誤っている。

問２　じろうさんは，個人が尊重される国家・社会に必要な考え方について，**メモ２**にまとめた。**メモ２**のにあてはまる内容を，**メモ２**の下線部の語句を用いて簡潔に書きなさい。

メモ２

世界の国の中には，国家権力が戦争・人権侵害・独裁を行い，人々を苦しめたという歴史を持つ国もある。このような過(あやま)ちを繰り返さないために，憲法によって［　　］，人々の人権を守るという考え方が生まれた。この考え方を立憲主義という。

問３　かなみさんとじろうさんは，日本の選挙制度の特徴について会話をした。この会話文の［ a ］～［ c ］にあてはまる語句の組み合わせとして最も適当なものを，下の**ア～エ**の中から一つ選び，記号を書きなさい。

かなみ：私たちもあと何年かで選挙権をもつようになるよ。
じろう：そうだね。選挙は四つの原則の下で行われるよ。これらの原則のことを知っているかな。
かなみ：知っているわ。そのうち一つは，財産や性別に関係なく満 18 歳以上の国民全員が選挙権をもつ［ a ］の原則だったわね。
じろう：そうだね。ところで，昨年，衆議院議員総選挙が行われたね。現在の衆議院議員の選挙の選挙制度は何か知っているかな。
かなみ：小選挙区比例代表並立制よ。投票の時には，小選挙区の投票用紙に［ b ］名を書き，比例代表の投票用紙に［ c ］名を書くのよ。
じろう：かなみさん，よく勉強しているね。日本の選挙制度の特徴について，他にも色々調べてみよう。

ア　a－普通選挙　　b－候補者　　c－政党
イ　a－普通選挙　　b－政党　　c－候補者
ウ　a－平等選挙　　b－候補者　　c－政党
エ　a－平等選挙　　b－政党　　c－候補者

問４　**説明文１**は，かなみさんが国会と内閣との関係をじろうさんに説明したものである。**説明文１**の［　　］にあてはまる語句を書きなさい。

説明文１

日本の内閣は，国会の議決で指名された内閣総理大臣（首相）を中心に組織される。衆議院は，現状の内閣が信用できず，行政を任せられないと考えるときには，［　　］決議を行い，内閣の政治責任を問うことができる。

問５　**説明文２**は，じろうさんが地方自治についてかなみさんに説明したものである。**説明文２**の［　　］にあてはまる語句を書きなさい。

説明文２

地方自治は，よりよい社会を形成するために，住民一人一人が直接参加して生活に身近な問題の解決を目指す場面が多いことから，「［　　］の学校」と呼ばれている。

問６　かなみさんとじろうさんがそれぞれ見つけた，現代社会の特色に関わる**資料１**，**資料２**の［　　］に共通してあてはまる語句を書きなさい。

資料１

人間のようにものを認識したり，学習したりできる［　　］を知っていますか。［　　］の研究が進むと，人間の代わりにいろんな仕事ができるようになり，私たちの生活や仕事が大きく変わるかもしれません。

［　　］という言葉は 1956 年から使われています。コンピューターの計算能力が飛躍的に伸びた 2010 年以降，［　　］研究は世界中でブームになりました。

（読売新聞　2017 年２月１日より一部抜粋）

資料２

同級生や弟と※糖尿病網膜症の診断システムを開発した 16 歳のカヴァヤ･コッパラプーさん。眼の病気に悩む祖父を助けたい。米バージニア州の高校に通う 16 歳，カヴァヤ・コッパラプーの頭に浮かんだアイデアは，［　　］を使うことだった。自らスマートフォン（スマホ）のアプリを開発し，専用レンズは３Ｄプリンターで作った。撮影した眼球の画像を３万 4000 人分のデータと照らし合わせ，機械学習で「糖尿病網膜症」の※兆候を診断する。弟や友人と作り上げたシステムを実証実験が終わり次第，市場に投入する計画だ。

※糖尿病網膜症…糖尿病が原因で視力が低下する病気
※兆候…物事が起こる前ぶれ

（日本経済新聞　2018 年１月 13 日より一部抜粋）

[解答欄]

問１	
問２	
問３	
問４	
問５	
問６	

[問題 5]（鹿児島 2022 年 2 月）

次は，ある中学生が日本国憲法について授業で学んだことをノートにまとめたものである。

１～６の問いに答えよ。

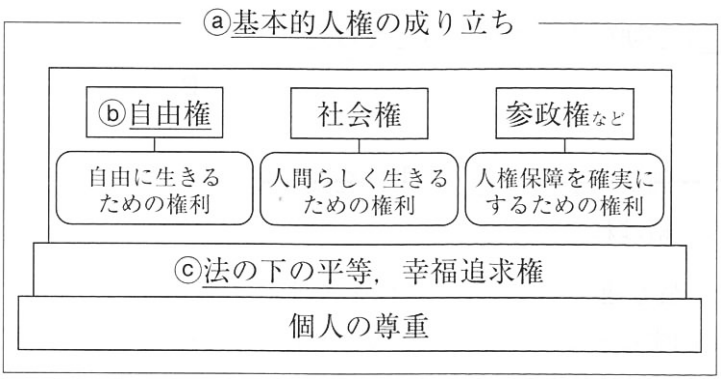

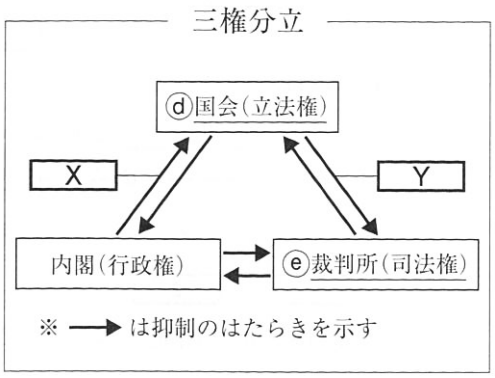

1　ⓐに関して，次は日本国憲法の条文の一部である。［　　］にあてはまることばを書け。

> 第 12 条 この憲法が国民に保障する自由及び権利は，国民の不断の努力によつて，これを保持しなければならない。又，国民は，これを濫用してはならないのであつて，常に［　　］のためにこれを利用する責任を負ふ。

2　ⓑに関して，身体の自由の内容として最も適当なものはどれか。

ア　財産権が不当に侵されることはない。

イ　裁判を受ける権利を奪われることはない。

ウ　通信の秘密を不当に侵されることはない。

エ　自己に不利益な供述を強要されることはない。

3　ⓒに関して，言語，性別，年齢，障がいの有無にかかわらず，あらかじめ利用しやすい施設や製品などをデザインすること，またはそのようなデザインを何というか。

4　ⓓに関して，次の文は，国会が衆議院と参議院からなる二院制をとっている目的について述べたものである。文中の［　　］に適することばを補い，これを完成させよ。

> 定数や任期，選挙制度が異なる議院を置くことで，［　　］。また，慎重な審議によって一方の議院の行きすぎを防ぐこともできる。

5　［X］，［Y］にあてはまることばの組み合わせとして最も適当なものはどれか。

ア　（X　衆議院の解散　　Y　国民審査）

イ　（X　法律の違憲審査　　Y　弾劾裁判所の設置）

ウ　（X　衆議院の解散　　Y　弾劾裁判所の設置）

エ　（X　法律の違憲審査　　Y　国民審査）

6　ⓔに関して，**資料**はある地方裁判所の法廷のようすを模式的に示したものである。この法廷で行われる裁判について述べた文として最も適当なものはどれか。

ア　お金の貸し借りなどの個人と個人の間の争いを解決する。

イ　国民の中から選ばれた裁判員が参加する場合がある。

ウ　和解の成立によって裁判が途中で終わることがある。

エ　被害者が法廷に入り被告人に直接質問することはない。

資料

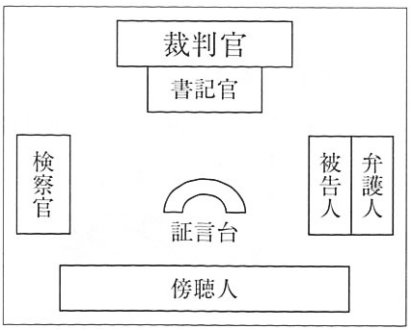

[解答欄]

1	
2	
3	
4	
5	
6	