第 11 章	公民(3 年)	高校入試過去問題	暮らしと経済	3400
			暮らしと経済	

[問題 1] (茨城 2022 年 2 月)

次の**問１～問３**の問いに答えなさい。

問１　**資料２～資料４**は 2021 年６月に改正された育児・介護(かいご)休業法に関連する資料である。これらの資料から読み取れることとして適切なものを，下の**ア～オ**の中から**すべて**選んで，その記号を書きなさい。

資料２　育児・介護休業法の改正ポイントの一部

①本人または配偶者の妊娠・出産等を申し出た労働者に対し，休業を取得する意向があるかを確認するよう，事業主に義務づけた。
②男性が，通常の育児休業とは別に，子の生後８週間以内に最大４週間の休暇を取れるようにする。この休暇は２回まで分割取得を可能とする。
③従業員数 1000 人超の企業は，育児休業等の取得の状況を年１回公表することを義務づけられた。

注）育児休業とは，１歳に満たない子を養育する男女労働者が，会社に申し出ることにより，１歳になるまでの間で希望する期間，育児のために休業できる制度をさす。

〔厚生労働省資料より作成〕

資料３　男性と女性の育児休業取得率の推移
(2012 年度～2019 年度)

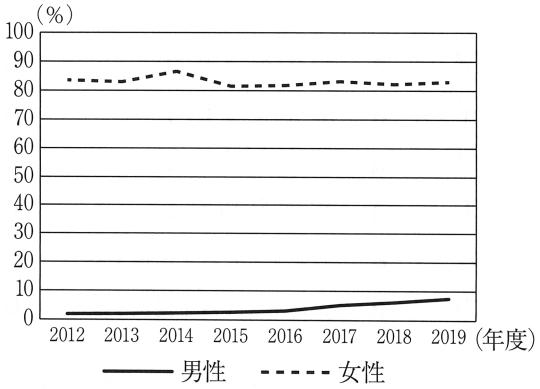

〔厚生労働省資料より作成〕

資料４　女性の年齢階層別の労働力率の推移

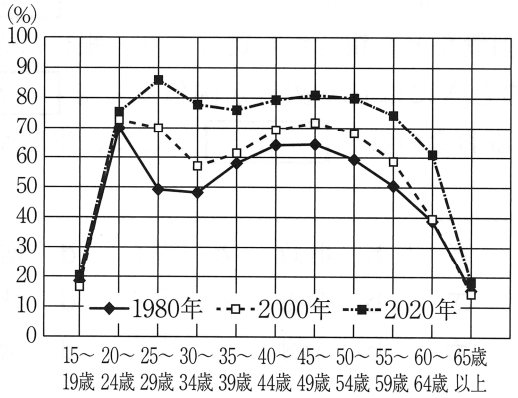

注）労働力率とは，以下の式で表される労働力人口比率をさす。
＜(就業者および完全失業者の人数)÷(15 歳以上の人数)＞

〔総務省資料より作成〕

ア　2012 年度から 2019 年度における育児休業取得率は，男性は常に 10%未満，女性は常に 80%以上であり，大きな差が見られる。

イ　2015 年度から 2019 年度にかけて男性と女性の育児休業取得率を比べると，女性の方が取得率の伸びが大きい。

ウ　2020 年の 25～64 歳における女性の労働力率は，2000 年と比べて，どの年齢階層においても高くなっている。

エ　育児・介護休業法の改正によって，男性が，通常の育児休業とは別に，子の生後８週間以内に最大４週間の休暇を取れるようにすることが定められた。

オ　育児・介護休業法の改正によって，すべての企業は育児休業等の取得の状況を年１回公表することを義務づけられた。

問２　**資料５**は，政府と家計，企業の関係を示したものである。ａ，ｂ，ｃの説明の組み合わせとして適切なものを，次の**ア**～**カ**の中から一つ選んで，その記号を書きなさい。

資料５　政府と家計，企業の関係

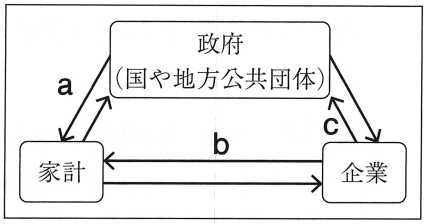

ア　[ａ　賃金を支払う　　ｂ　公共サービスを提供する　　ｃ　税金を納める]
イ　[ａ　賃金を支払う　　ｂ　税金を納める　　ｃ　公共サービスを提供する]
ウ　[ａ　税金を納める　　ｂ　賃金を支払う　　ｃ　公共サービスを提供する]
エ　[ａ　税金を納める　　ｂ　公共サービスを提供する　　ｃ　賃金を支払う]
オ　[ａ　公共サービスを提供する　　ｂ　税金を納める　　ｃ　賃金を支払う]
カ　[ａ　公共サービスを提供する　　ｂ　賃金を支払う　　ｃ　税金を納める]

問３　次の［　　］の文は，経済政策について述べたものである。文中の［ａ］に当てはまる語を**カタカナ**で書きなさい。また，［ｂ］～［ｄ］に当てはまる語の組み合わせとして適切なものを，下の**ア**～**カ**の中から一つ選んで，その記号を書きなさい。

> 好景気（好況）が行きすぎると，物価が上がり続ける［ａ］が生じてしまいます。そのため，日本銀行は，物価の変動をおさえて景気を安定させるために，［ｂ］政策を行います。その方法の一つとして，国債などを銀行から買ったり，銀行に売ったりする公開市場操作を行います。好景気のときには日本銀行が国債などを［ｃ］傾向を強めることによって，世の中に出回るお金の量を［ｄ］ことで，生産や消費をおさえて景気を落ち着かせます。

ア　[ｂ　財政　　ｃ　買う　　ｄ　増やす]　　**イ**　[ｂ　財政　　ｃ　売る　　ｄ　増やす]
ウ　[ｂ　財政　　ｃ　買う　　ｄ　減らす]　　**エ**　[ｂ　金融　　ｃ　売る　　ｄ　減らす]
オ　[ｂ　金融　　ｃ　買う　　ｄ　減らす]　　**カ**　[ｂ　金融　　ｃ　売る　　ｄ　増やす]

[解答欄]

<table>
<tr><td>問１</td><td colspan="2"></td></tr>
<tr><td>問２</td><td colspan="2"></td></tr>
<tr><td rowspan="2">問３</td><td>a</td><td></td></tr>
<tr><td>ｂ～ｄ</td><td></td></tr>
</table>

[問題 2] (岩手 2022 年 2 月)

次の資料は，かなみさんのグループが社会科の授業で地域の駅前商店街について調べ，発表のために準備したメモの一部です。これを見て，下の**問１～問３**の問いに答えなさい。

＜駅前商店街について＞
○電気屋さんは，商品の①価格が変わらないように工夫していました。
○スーパーマーケットは，②株式会社という会社の形態をとっていました。
○商店街全体でお客様が安心して買い物ができるように③設計されていました。

問１　下線部①について，次の文は，さまざまな商品の価格を総合して平均した指標である物価について述べたものです。下の**ア～エ**のうち，文中の（　X　）と（　Y　）にあてはまることばの組み合わせとして，最も適当なものはどれですか。**一つ**選び，その記号を書きなさい。

（　X　）になると，商品やサービスの需要が増え，需要が供給を上回ると，物価が上がり続ける（　Y　）が起こる。

ア　X：好況　　Y：デフレーション　　**イ**　X：好況　　Y：インフレーション
ウ　X：不況　　Y：デフレーション　　**エ**　X：不況　　Y：インフレーション

問２　下線部②について，株式や社債を発行して資金を集める方法を何といいますか。**ことば**で書きなさい。

[解答欄]

問１	
問２	

[問題 3] (宮城 2022 年 2 月)

科学技術の発展と社会の変化について，**資料Ａ**を読んで，あとの**問１**～**問３**の問いに答えなさい。

> **資料Ａ**　科学技術の発展と社会の変化
>
> 科学技術の発展は，社会に大きな変化をもたらしました。たとえば，①情報化の進展は，新しい産業を創出し，市場を拡大させました。また，②医療技術の進歩は，医療のあり方にも影響を与えています。私たちには，科学技術の発展にともなう変化に対応するとともに，③社会をよりよい方向に変える手助けになるように，科学技術を活用することが求められています。

問１　下線部①について，次の(1)～(3)の問いに答えなさい。

(1) 情報化の進展についてまとめた**資料Ｂ**中の［ a ］，［ b ］にあてはまる語句の組み合わせとして，最も適切なものを，次の**ア**～**エ**から１つ選び，記号で答えなさい。

> **資料Ｂ**　情報化の進展
>
> ［ a ］と略称される情報通信技術は，急速に発展し，私たちの生活の利便性を大きく向上させました。一方で，情報化社会に対応するために，情報を正しく読み取り活用する能力である［ b ］を身に付けることが求められています。

ア　a－ＩＣＴ　　b－情報リテラシー
イ　a－ＩＣＴ　　b－マスメディア
ウ　a－ＡＩ　　b－情報リテラシー
エ　a－ＡＩ　　b－マスメディア

(2) 科学技術の発展にともない，情報通信などの分野で，形のない商品の流通が増えています。市場で取り引きされる商品のうち，形のない商品のことを何というか，次の**ア**～**エ**から１つ選び，記号で答えなさい。

ア　資本　　**イ**　サービス　　**ウ**　株式　　**エ**　利潤

(3) 日本において，市場の独占を規制して自由競争をうながすために，独占禁止法にもとづいて監視や指導を行う国の機関を何というか，書きなさい。

問２　下線部②について，医療のあり方の変化を背景に，医療現場でインフォームド・コンセントが求められるようになりました。インフォームド・コンセントについて説明したものとして，最も適切なものを，次の**ア**～**エ**から１つ選び，記号で答えなさい。

ア　医師が，医療に関する十分な専門的知識を身に付けたうえで，患者の治療にあたること。
イ　医師が，治療の内容について記録を残し，患者からの要望があれば情報を開示すること。
ウ　患者の個人情報を，患者の許可なく他者に知られないよう，医師が厳重に管理すること。
エ　治療方法などを患者が最終決定できるよう，医師が十分に説明して患者の同意を得ること。

問３　下線部③について，科学技術を医療に生かす取り組みとして，情報通信機器を通して診察や診断などを行うオンライン診療の導入が進められています。オンライン診療について，導入することで高齢の患者が得られる利点と，導入にあたっての課題を，**資料Ｃ～Ｅ**を参考にして，簡潔に述べなさい。

資料Ｃ　医療サービス利用時の移動手段(2017 年)

		自分で運転する自動車等	公共交通機関	家族による送迎
都市規模別（%）	大都市	25.0	23.1	4.1
	中都市	46.8	9.9	11.2
	小都市	59.2	5.2	17.0
	町村	55.2	4.6	16.7
年齢別（%）	55～59 歳	65.4	11.8	1.3
	60 歳代	59.8	7.7	6.2
	70 歳代	40.9	12.0	12.8
	80 歳以上	21.9	14.0	26.5

（注）　調査対象は全国の 55 歳以上の男女である。また，数字は四捨五入している。

（「平成 29 年高齢者の健康に関する調査」より作成）

資料Ｄ　年齢階層別インターネット利用率(2017 年)

年齢階層	インターネット利用率(%)
60 歳代	73.9
70 歳代	46.7
80 歳以上	20.1

（「令和元年版情報通信白書」より作成）

資料Ｅ　オンライン診療に患者への配慮を取り入れた例

看護師などが通信用機器を持参して患者宅を訪問し，機器の設置と診療のサポートを行う。

（「厚生労働省ホームページ」より作成）

[解答欄]

問１	(1)	
	(2)	
	(3)	
問２		
問３		

[問題 4] (神奈川 2022 年 2 月)

次の**問１～問２**の問いに答えなさい。答えを選ぶ問いについては一つ選び，その記号を書きなさい。

問１　次は，ある中学生が公民的分野の学習を振り返って書いたレポートの一部である。１～５の問いに答えよ。

> 私は，少子高齢社会における社会保障のあり方や，ⓐ消費者の保護など，授業で学習したことと私たちの生活とは深い関わりがあると感じました。また，市場経済や財政のしくみについての学習を通して，ⓑ価格の決まり方やⓒ租税の意義などについて理解することができました。
>
> 今日，生産年齢人口の減少，ⓓグローバル化の進展や絶え間ない技術革新などにより，社会は大きく変化しています。そのような中，選挙権年齢が [　　] 歳に引き下げられ，さらに令和４年度からは成年年齢も [　　] 歳へと引き下げられ，私たちにとって社会は一層身近なものになっています。私は，社会の一員としての自覚をもって行動したいと思います。

1　[　　] に共通してあてはまる数を書け。

2　ⓐに関して，業者が商品の重要な項目について事実と異なることを伝えるなどの不当な勧誘を行った場合，消費者はその業者と結んだ契約を取り消すことができる。
このことを定めた 2001 年に施行された法律は何か。

3　ⓑに関して，**資料１**は，自由な競争が行われている市場における，ある商品の需要量と供給量と価格の関係を表したものである。ある商品の価格を**資料１**で示したＰ円としたときの状況と，その後の価格の変化について述べた次の文の [X　　] ，[　Y　] に適することばを補い，これを完成させよ。ただし [　　X　　] には，**需要量**，**供給量**ということばを使うこと。

> 価格がＰ円のときは，[　　X　　] ため，一般に，その後の価格はＰ円よりも [　Y　] と考えられる。

資料１

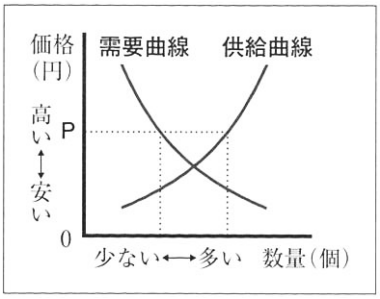

4　ⓒに関して，次は，社会科の授業で，あるグループが租税のあり方について話し合った際の意見をまとめたものである。このグループの意見を，**資料２**中の**ア**～**エ**のいずれかの領域に位置づけるとすると最も適当なものはどれか。

> ・国内農業を守るために，関税の税率を引き上げる。
> ・社会保障を充実させるために，消費税の税率を引き上げる。

資料２

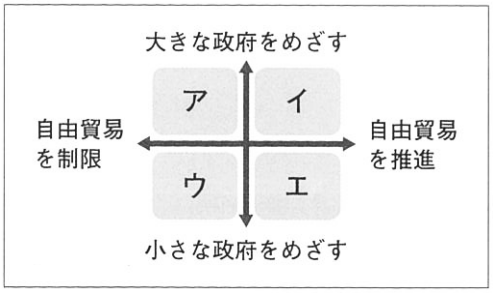

5　ⓓに関して，輸出や輸入を行う企業の活動は，為替相場（為替レート）の変動の影響を受けやすい。ある企業が１台 240 万円の自動車をアメリカへ輸出する場合，為替相場が１ドル＝120 円のとき，アメリカでの販売価格は２万ドルとなった。その後，為替相場が１ドル＝100 円に変動したときの，この自動車１台のアメリカでの販売価格はいくらになるか答えよ。なお，ここでは，為替相場以外の影響は考えないものとする。

問２　**資料１**は，持続可能な開発目標（SDGs）の一つを示したものである。この目標に関して，中学生のしのぶさんは，まだ食べられるのに廃棄される食品が大量にあるという問題に関心をもった。そこで，しのぶさんは自宅近くのスーパーマーケットに行き，この問題の解決への取り組みについて調べたり話を聞いたりした。

資料１

12
つくる責任
つかう責任
のロゴ

資料２

季節商品予約制のお知らせ

土用（どよう）の丑（うし）の日のうなぎやクリスマスケーキ，節分の日の恵方巻きなどを予約販売にします。

資料２は，その際にしのぶさんが収集した資料である。

資料２の取り組みが，この問題の解決につながるのはなぜか，解答欄の書き出しのことばに続けて，**40 字以上 50 字以内**で説明せよ。ただし，書き出しのことばは字数に含めないこととする。

[解答欄]

問２	1		
	2		
	3	X	
		Y	
	4		
	5		
問３			

[問題 5]（石川 2022 年 2 月）

次のメモは，太郎さんが市内のショッピングセンターで調べた内容についてまとめたものである。これを見て，下の各問に答えなさい。

・消費者が商品を購入するときに支払った①消費税は，事業者がまとめて納める。
・野菜や魚の価格の多くは，市場で決められる②市場価格である。
・輸入品の価格は，③為替レート（為替相場）の変動の影響を受けている。
・インターネットで注文を受けた商品を④宅配するサービスを行っている。
・⑤物価が大きく変動すると，店の売り上げに影響がある。

問１　下線部①について，消費税のように税金を納める人と負担する人が異なる税を何というか，書きなさい。

問２　下線部②について，太郎さんがレタスの市場価格を調べたところ，天候不順のため高くなっていることがわかった。このとき，市場価格が高くなった理由を，「**供給量**」という語句を使って書きなさい。

問３　次の文は，下線部③について，太郎さんがまとめたものの一部である。［Ⅰ］，［Ⅱ］にはあてはまる数字を，［Ⅲ］には「**有利**」「**不利**」のいずれかの語句を書きなさい。

為替レートが 1 ドル＝110 円から 1 ドル＝100 円に変動したとき，1 台 500 ドルのタブレット端末の価格は，円に換算すると［Ⅰ］円から［Ⅱ］円になる。また，このような為替相場の変動は，一般に，主に輸入をする日本の企業にとって［Ⅲ］になる。

問４　下線部④について，**資料１**は，2015 年に採択されたパリ協定にあわせ，政府が消費者に呼びかけを開始した内容の一部である。政府のこの取り組みが，パリ協定の目標達成につながるのはなぜだと考えられるか，書きなさい。

資料１

―再配達防止プロジェクト―
宅配便できるだけ
１回で受け取りませんか

（環境省ホームページより作成）

問５　下線部⑤について，**資料２**は，物価の安定を目的に，日本銀行が 2013 年に始めた金融政策の一部をまとめたものであり，下の文は，これについて，太郎さんが書いたものである。［Ⅰ］，［Ⅱ］にあてはまる語句の組み合わせとして正しいものを，下の**ア**～**エ**から 1 つ選び，その符号を書きなさい。また，［Ⅲ］にあてはまる適切な内容を，次の 2 つの語句を使って書きなさい。

資料２

日本銀行は，物価を前年比２％上昇させることを目標と定めて，様々な金融政策を行うこととしました。

（日本銀行ホームページより作成）

（　**一般の銀行**　　**景気**　）

ア　Ⅰ－一般の銀行に売る　　Ⅱ－増やす　　**イ**　Ⅰ－一般の銀行に売る　　Ⅱ－減らす
ウ　Ⅰ－一般の銀行から買う　　Ⅱ－増やす　　**エ**　Ⅰ－一般の銀行から買う　　Ⅱ－減らす

資料２の金融政策の一環として，日本銀行は，国債を［Ⅰ］操作や，一般の銀行から預かっているお金の量を［Ⅱ］取り組みを行った。日本銀行のこうした金融政策により，［Ⅲ］ことで，物価の上昇につながると考えられる。

[解答欄]

<table>
<tr><td>問１</td><td colspan="6"></td></tr>
<tr><td>問２</td><td colspan="6"></td></tr>
<tr><td>問３</td><td>Ⅰ</td><td></td><td>Ⅱ</td><td></td><td>Ⅲ</td><td></td></tr>
<tr><td>問４</td><td colspan="6"></td></tr>
<tr><td rowspan="2">問５</td><td>Ⅰ，Ⅱ</td><td colspan="5"></td></tr>
<tr><td>Ⅲ</td><td colspan="5"></td></tr>
</table>